30日間 脳トレプリント（ふつう）

1日1枚、毎日ちがうパズル

1日1枚ずつ解いてみましょう。答えは最後にまとめてあります。

解いた日に印をつけましょう

1日目 ☐	2日目 ☐	3日目 ☐	4日目 ☐	5日目 ☐	6日目 ☐
7日目 ☐	8日目 ☐	9日目 ☐	10日目 ☐	11日目 ☐	12日目 ☐
13日目 ☐	14日目 ☐	15日目 ☐	16日目 ☐	17日目 ☐	18日目 ☐
19日目 ☐	20日目 ☐	21日目 ☐	22日目 ☐	23日目 ☐	24日目 ☐
25日目 ☐	26日目 ☐	27日目 ☐	28日目 ☐	29日目 ☐	30日目 ☐

ナンプレ

レベル4 ふつう · 1日目

名前 _____ 日付 _____

どの行・列・太わくの中にも、1から9が一度ずつ入ります。

5	1		8		2			
6								1
				7	6	5		4
	6		2	3				
	7				4			8
9	4	3		8			6	5
	5	8			9	7		
1	3	2	5				8	
						3	5	2

計算ドリル

レベル3 やさしい · 2日目

名前 _____ 日付 _____

空らんに答えを書きましょう。

1. 56 + 2 = □
2. 67 + □ = 69
3. 33 + 6 = □
4. 94 − 2 = □
5. 83 + □ = 86
6. 66 + □ = 69
7. 84 + 3 = □
8. 84 − 2 = □
9. 27 − 4 = □
10. 65 + □ = 68
11. 52 + □ = 57
12. 95 − 5 = □
13. 74 − 3 = □
14. 46 + 3 = □
15. 17 + 2 = □
16. 13 + 6 = □
17. 80 + □ = 89
18. 20 + □ = 23
19. 33 + 4 = □
20. 46 − 6 = □
21. 16 + 3 = □
22. 24 + 4 = □
23. 77 − 4 = □
24. 64 + □ = 67
25. 72 − 2 = □
26. 35 + □ = 38
27. 44 − 3 = □
28. 13 + 5 = □
29. 54 − 4 = □
30. 55 + □ = 59

迷路

レベル4 ふつう · 3日目

名前 _____ 日付 _____

左上からスタートして、右下の二重丸まで鉛筆で線を引きましょう。



まちがいさがし

レベル3 やさしい · 4日目

名前 _____ 日付 _____

二つの絵をくらべて、ちがうところを 3 か所見つけて丸をつけましょう。

一枚目



二枚目



計算クロス

レベル4 ふつう · 5日目

名前 _____ 日付 _____

たての式もよこの式も合うように、空らんに数字を入れましょう。答えは 1~9 です。

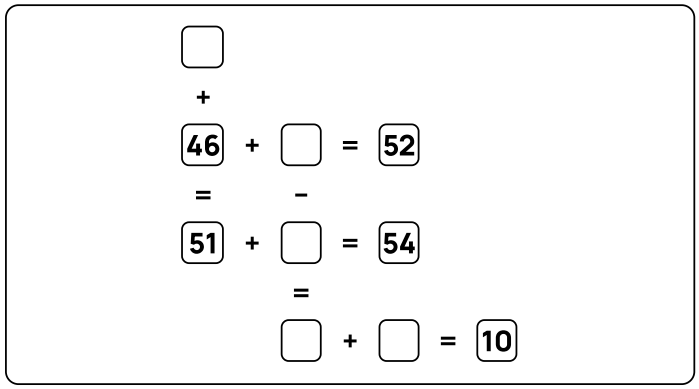

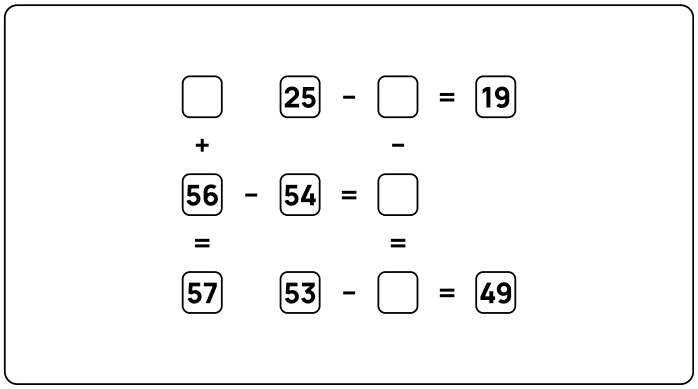

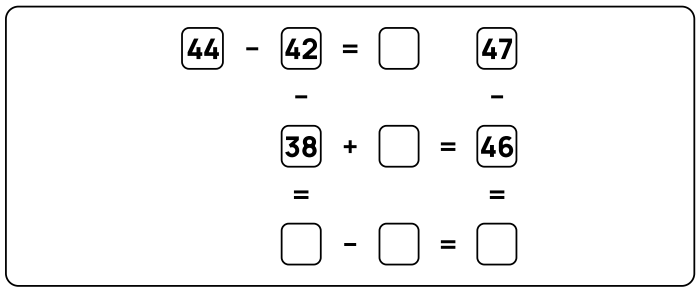

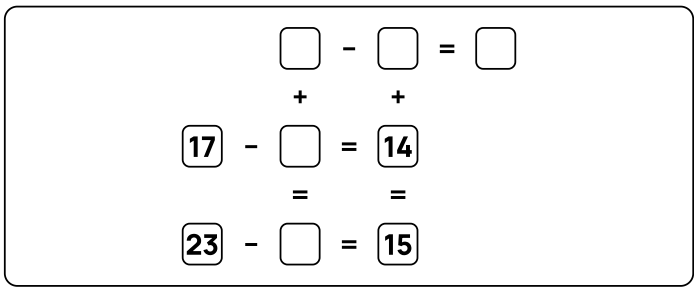

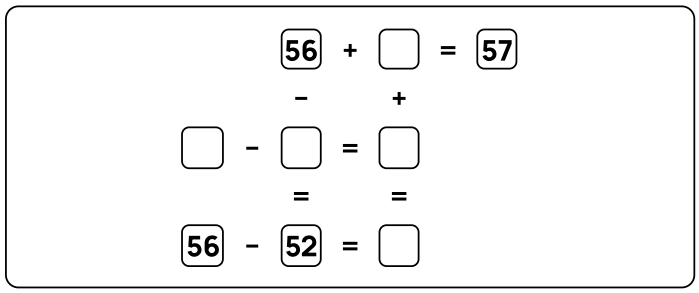

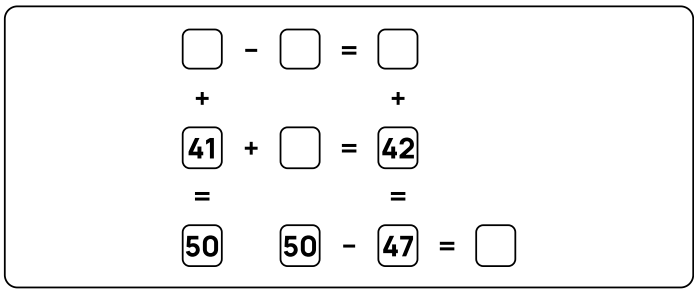

数字ぬり絵

くだもの · 6日目

名前 _____ 日付 _____

それぞれの番号を見て、下の色見本のとおりにぬりましょう。

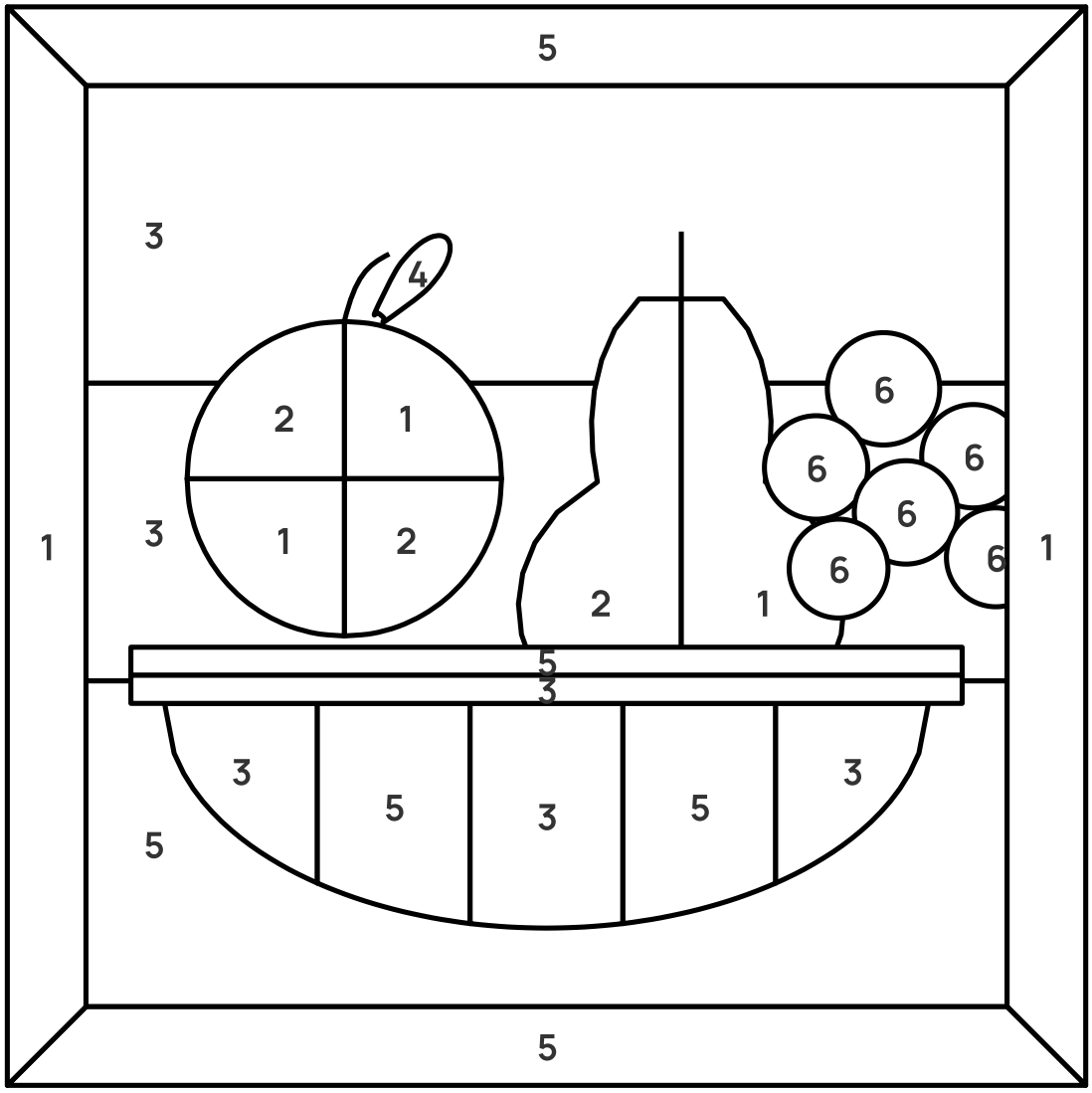

1:赤 2:黄色 3:青 4:緑 5:オレンジ 6:紫

完成見本

くだもの · 6日目

名前 _____ 日付 _____



図形かぞえ

レベル4 ふつう · 7日目

名前 _____ 日付 _____

それぞれの絵で、聞かれた図形の数をかぞえて四角に書きましょう。

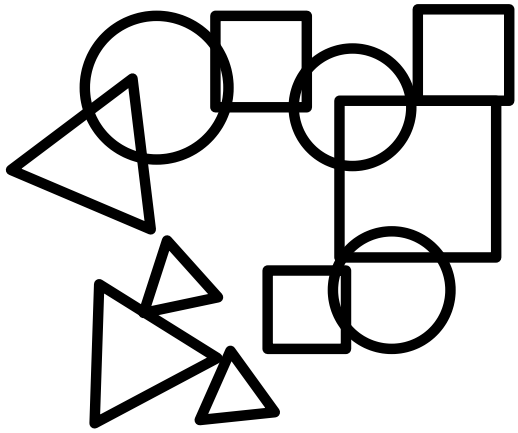

1. 四角はいくつ？ ☐



2. 丸はいくつ？ ☐

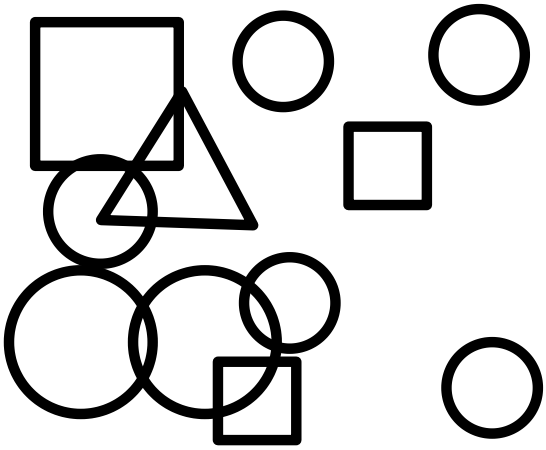

3. 丸はいくつ？ ☐



4. 丸はいくつ？ ☐



5. 三角はいくつ？ ☐



6. 丸はいくつ？ ☐

数字さがし

レベル3 やさしい·8日目

名前 _____ 日付 _____

1 から 25 まで順番にさがして、えんぴつで線でつなぎましょう。

1. 1 → 25

3	25	2	22	6
7	1	21	19	9
24	14	18	16	20
13	8	10	23	5
12	15	11	17	4

2. 1 → 25

12	22	5	1	4
24	11	9	13	20
19	10	2	3	14
18	15	7	16	17
21	6	8	25	23

3. 1 → 25

16	1	20	25	24
2	23	17	19	5
8	7	4	13	21
6	14	3	12	9
15	10	22	11	18

4. 1 → 25

17	7	25	4	11
6	12	5	14	18
15	20	10	22	24
23	8	19	9	13
16	21	1	3	2

点つなぎ

レベル4 ふつう · 9日目

名前 _____ 日付 _____

1 から順番に鉛筆で点をつなぎましょう。最後の点を 1 番とつなぐと絵が完成します。

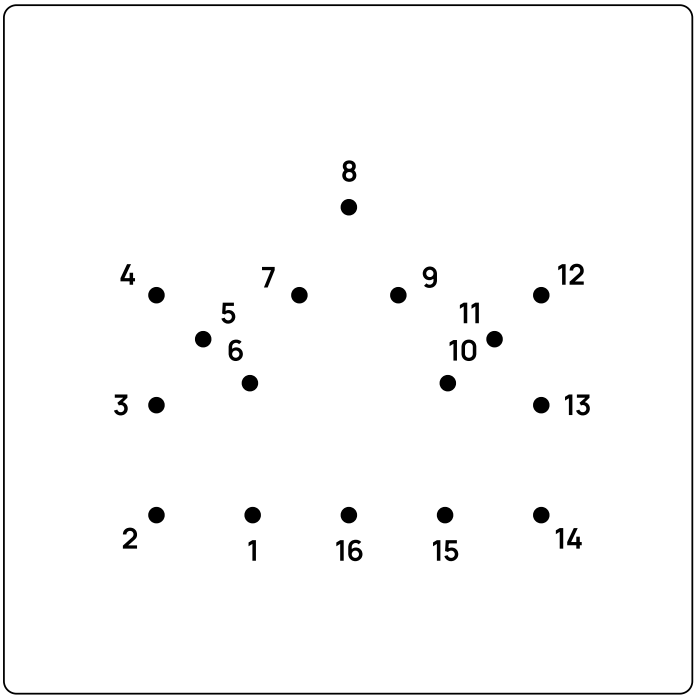



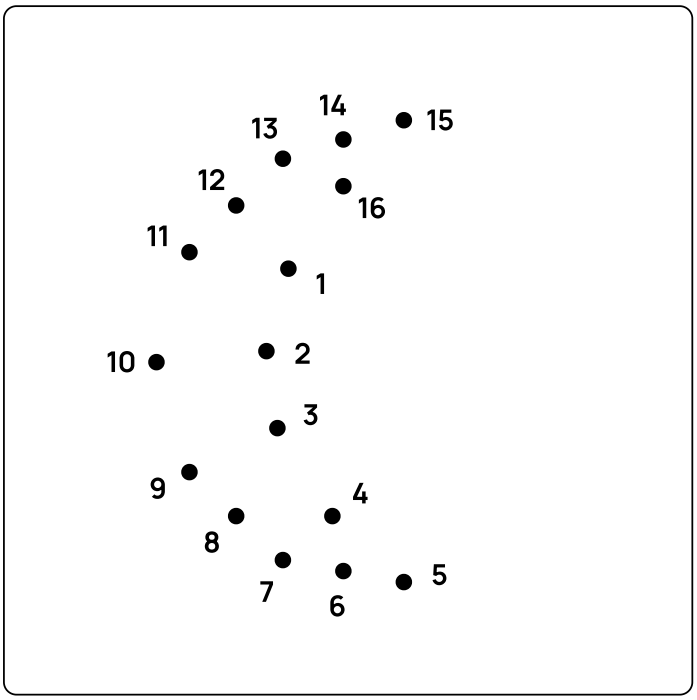



お絵かきロジック

レベル3 やさしい · 10日目

名前 _____ 日付 _____

列ごとに書かれた数だけ、マスを続けてぬりましょう。数が2つ以上なら、あいだを1マス以上あけます。

1.

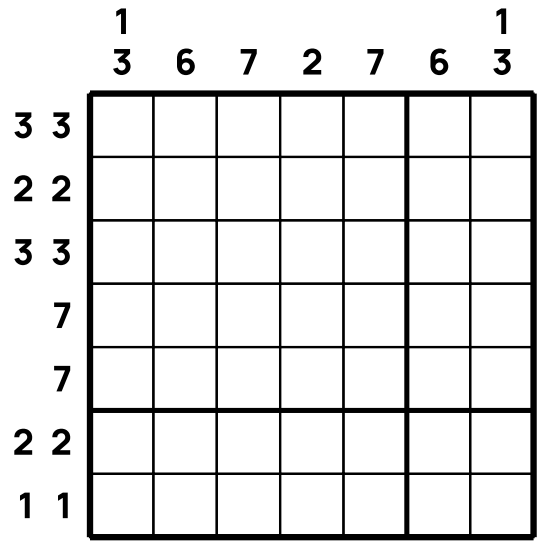

2.

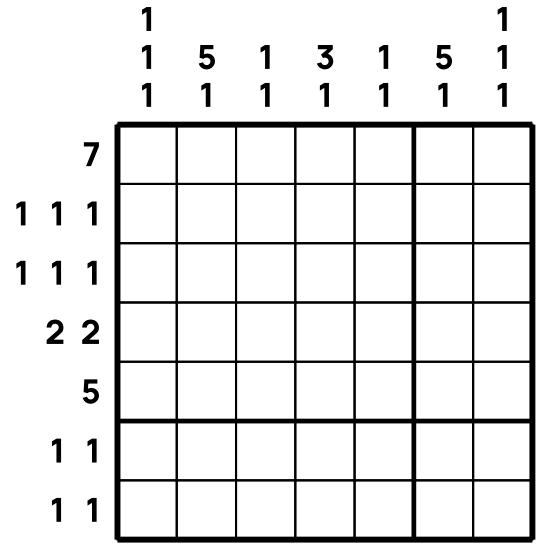

3.

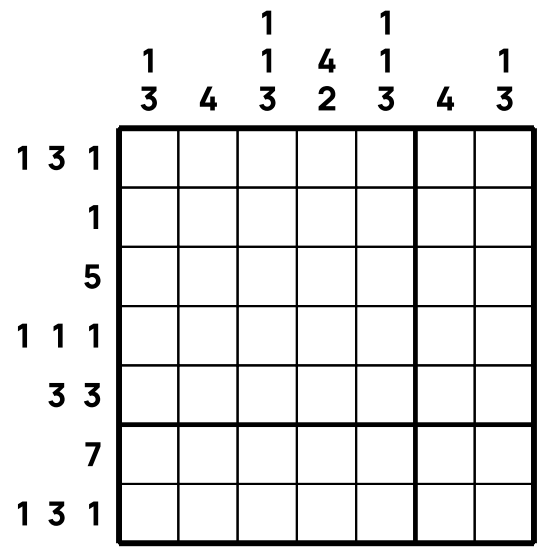

4.

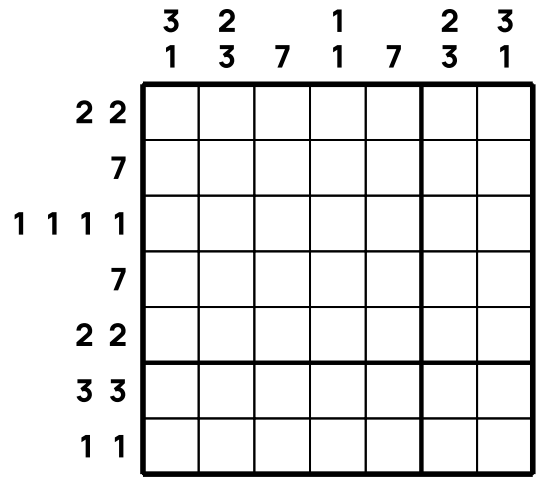

時計よみ

レベル4 ふつう · 11日目

名前 _____ 日付 _____

時計がさす時刻を空らんに書きましょう。



1. __ 時 __ 分



2. __ 時 __ 分



3. __ 時 __ 分



4. __ 時 __ 分



5. __ 時 __ 分



6. __ 時 __ 分

規則さがし

レベル3 やさしい · 12日目

名前 _____ 日付 _____

空らんに入る数字を書きましょう。

1. 2 , 12 , 22 , ☐ , 42

2. 1 , 3 , 5 , ☐ , 9

3. 19 , ☐ , 29 , 34 , 39

4. 40 , 43 , 46 , ☐ , 52

5. 1 , 11 , 21 , ☐ , 41

6. 2 , ☐ , 22 , 32 , 42

7. 12 , ☐ , 16 , 18 , 20

8. 23 , ☐ , 27 , 29 , 31

9. 37 , 42 , ☐ , 52 , 57

10. 49 , ☐ , 53 , 55 , 57

11. 39 , ☐ , 49 , 54 , 59

12. 19 , 22 , 25 , ☐ , 31

13. 20 , 30 , ☐ , 50 , 60

14. 14 , ☐ , 18 , 20 , 22

15. 15 , ☐ , 35 , 45 , 55

16. 16 , 26 , ☐ , 46 , 56

17. 11 , 16 , 21 , ☐ , 31

18. 9 , 19 , ☐ , 39 , 49

19. 11 , 16 , 21 , ☐ , 31

20. 12 , ☐ , 16 , 18 , 20

クイーン置き

レベル4 ふつう · 13日目

名前 _____ 日付 _____

たて・よこの列と、太い線で区切られた区画ごとに、丸を1つずつかきましょう。丸同士は、ななめでもとなり合ってはいけません。

1.

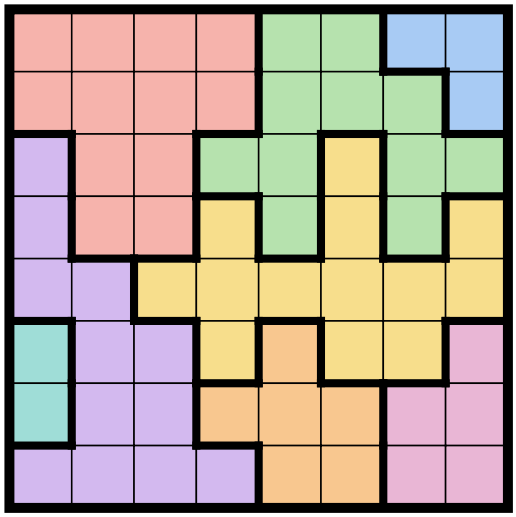

2.

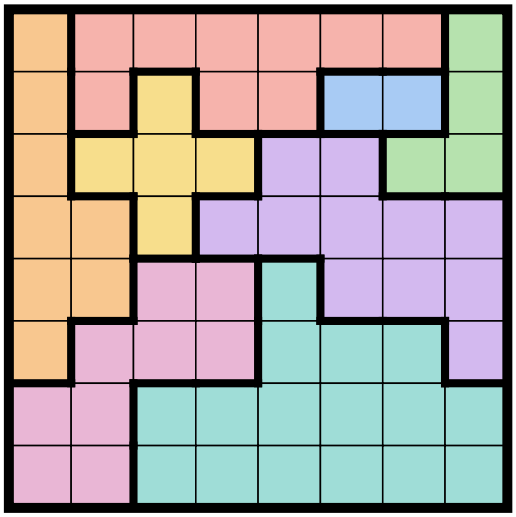

3.

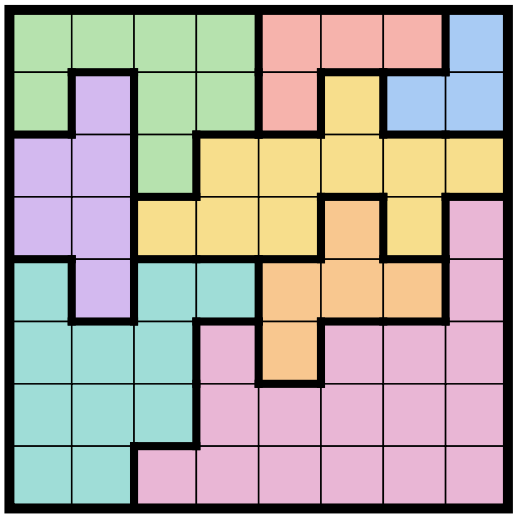

4.

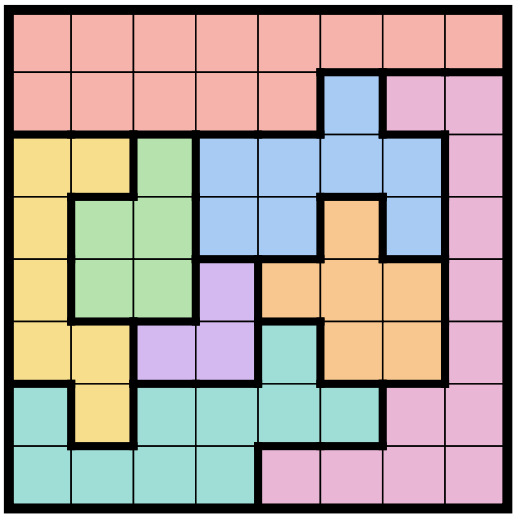

図形模写

レベル3 やさしい · 14日目

名前 _____ 日付 _____

左の見本を見て、右の点の上に同じように描きましょう。

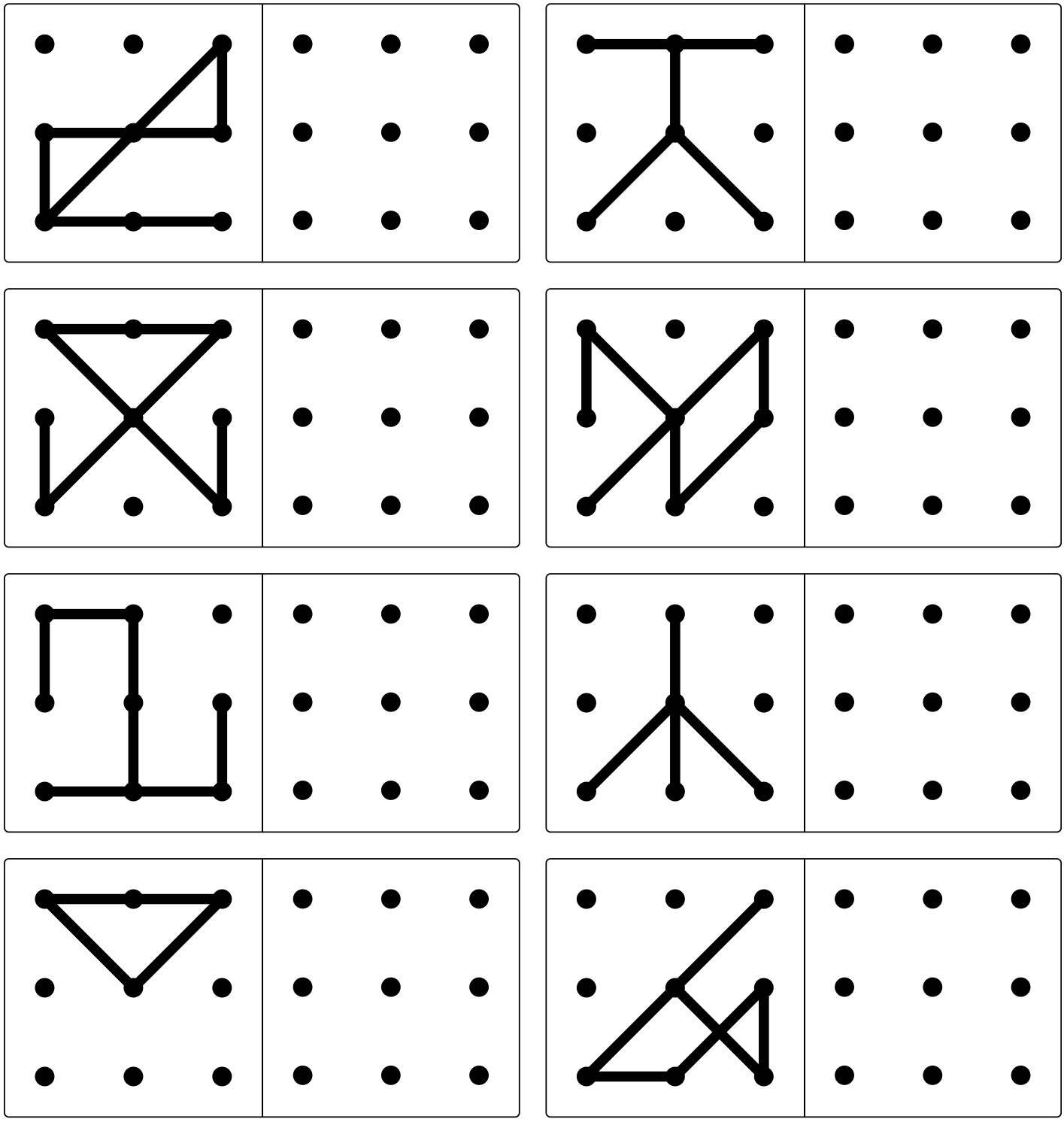

数字ペアさがし

レベル4 ふつう · 15日目

名前 _____ 日付 _____

同じ数字が2回出てくる場所をさがし、両方の四角に丸をつけましょう。(4組)

1.

25	86	37	39	20	79
69	16	18	78	50	67
54	72	33	69	26	54
61	71	90	51	17	24
76	82	72	26	23	41

2.

27	33	94	22	60	26
57	14	91	75	39	72
96	14	65	39	37	64
72	56	10	20	56	12
85	21	87	70	42	59

3.

48	43	50	30	66	16
43	18	83	67	47	71
24	25	53	94	77	66
85	49	80	78	58	22
15	82	94	36	67	93

4.

95	80	62	54	45	98
17	51	14	28	61	37
11	93	12	20	46	41
50	56	20	79	37	24
89	94	80	99	66	94

数字つなぎ

レベル3 やさしい · 16日目

名前 _____ 日付 _____

1から最後の数字まで、たて・よこに接するよう空らんを埋めましょう。

1.

1			24	
2	15	18	25	
3		19		
4				10
	6	7		

2.

		25		1
12	15	22		2
11	16		20	
10	17			
				5

3.

			22	25
16				
15	14	13	12	1
8		10		2
			4	

4.

11				7
	19	20	21	
13				
	17	24	25	4
	16	1		

影あわせ

レベル4 ふつう · 17日目

名前 _____ 日付 _____

先頭の絵と同じ形の影をさがし、その番号を四角の中に書きましょう。

1. 

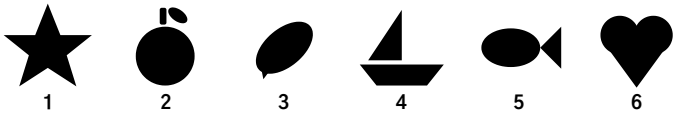

2. 



3. 



4. 

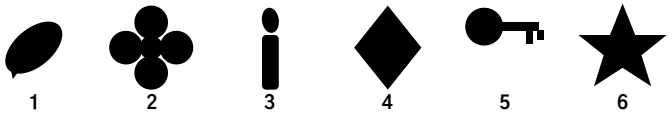

ナンプレ

レベル3 やさしい · 18日目

名前 _____ 日付 _____

どの行 · 列 · 太わくの中にも、1 から 9 が一度ずつ入ります。

			2	4	7	6	9	
7	3		1	5	9		8	
9	4	2		3	8	1	5	
8	7	1		9			3	
3	2		7		6		1	9
			3				7	4
4						3	6	1
	5			6				8
6	1		4	7	3	9		

計算ドリル

レベル4 ふつう · 19日目

名前 _____ 日付 _____

空らんに答えを書きましょう。

1. □ + 30 = 93
2. 75 − 68 = □
3. 76 + 14 = □
4. 23 − 16 = □
5. 63 − 55 = □
6. 91 − □ = 44
7. □ + 41 = 87
8. 90 − 29 = □
9. 30 − 27 = □
10. □ + 44 = 59
11. □ + 34 = 48
12. □ + 29 = 82
13. 75 + 16 = □
14. □ + 13 = 37
15. 34 + 56 = □
16. 42 + 48 = □
17. 26 + 59 = □
18. 38 + 16 = □
19. 92 − □ = 71
20. □ + 47 = 66
21. 30 − 14 = □
22. 71 − □ = 59
23. 25 − 16 = □
24. 49 + 33 = □
25. 59 − □ = 43
26. 56 − □ = 27
27. 26 − 17 = □
28. 59 − □ = 12
29. 99 − □ = 87
30. 69 + 29 = □

迷路

レベル3 やさしい · 20日目

名前 _____ 日付 _____

左上からスタートして、右下の二重丸まで鉛筆で線を引きましょう。

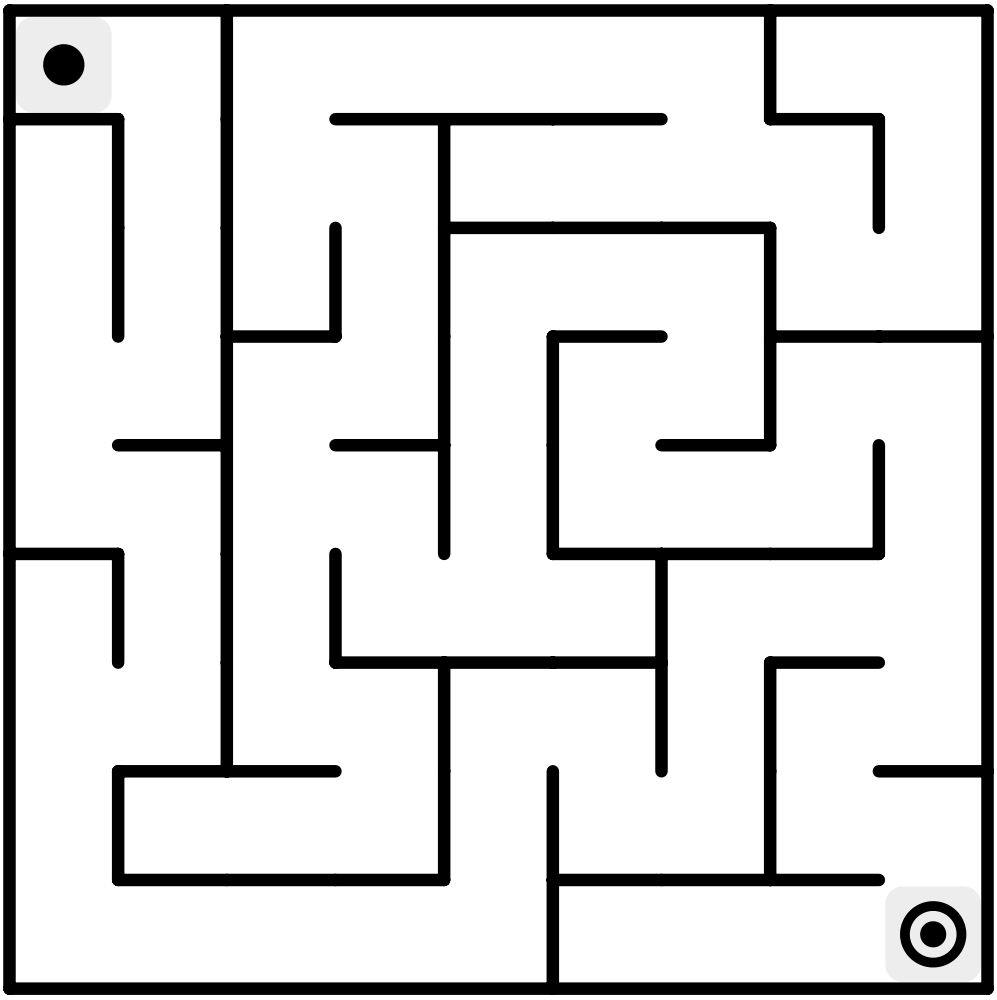

まちがいさがし

レベル4 ふつう · 21日目

名前 _____ 日付 _____

二つの絵をくらべて、ちがうところを 4 か所見つけて丸をつけましょう。

一枚目



二枚目



計算クロス

レベル3 やさしい · 22日目

名前 _____ 日付 _____

たての式もよこの式も合うように、空らんに数字を入れましょう。答えは 1~9 です。

□	+	12	=	15				
+		−						
□	+	□	=	□				
=		=						
□	+	10	=	15				

□	−	□	=	□				
+		−						
16	+	□	=	20				
=		=						
22	+	□	=	23				

28	+	□	=	29				
−				+				
□	+	□	=	□				
=				=				
27	+	□	=	31				

□	−	□	=	□				
+				+				
36	−	□	=	30				
=				=				
39	−	□	=	32				

35	+	□	=	38				
		+		−				
□	+	□	=	□				
		=		=				
25	+	□	=	29				

26	−	□	=	19				
−				+				
□	−	□	=	□				
=				=				
18	+	□	=	26				

□	+	23	=	29				
+		+						
□	+	□	=	□				
=		=						
□	+	28	=	37				

□	−	□	=	□				
+				+				
17	−	10	=	□				
=				=				
23	−	14	=	□				

□	+	37	=	38				
+		−						
□	+	□	=	□				
=		=						
□	+	34	=	38				

数字ぬり絵

ぶどう · 23日目

名前 _____ 日付 _____

それぞれの番号を見て、下の色見本のとおりにぬりましょう。

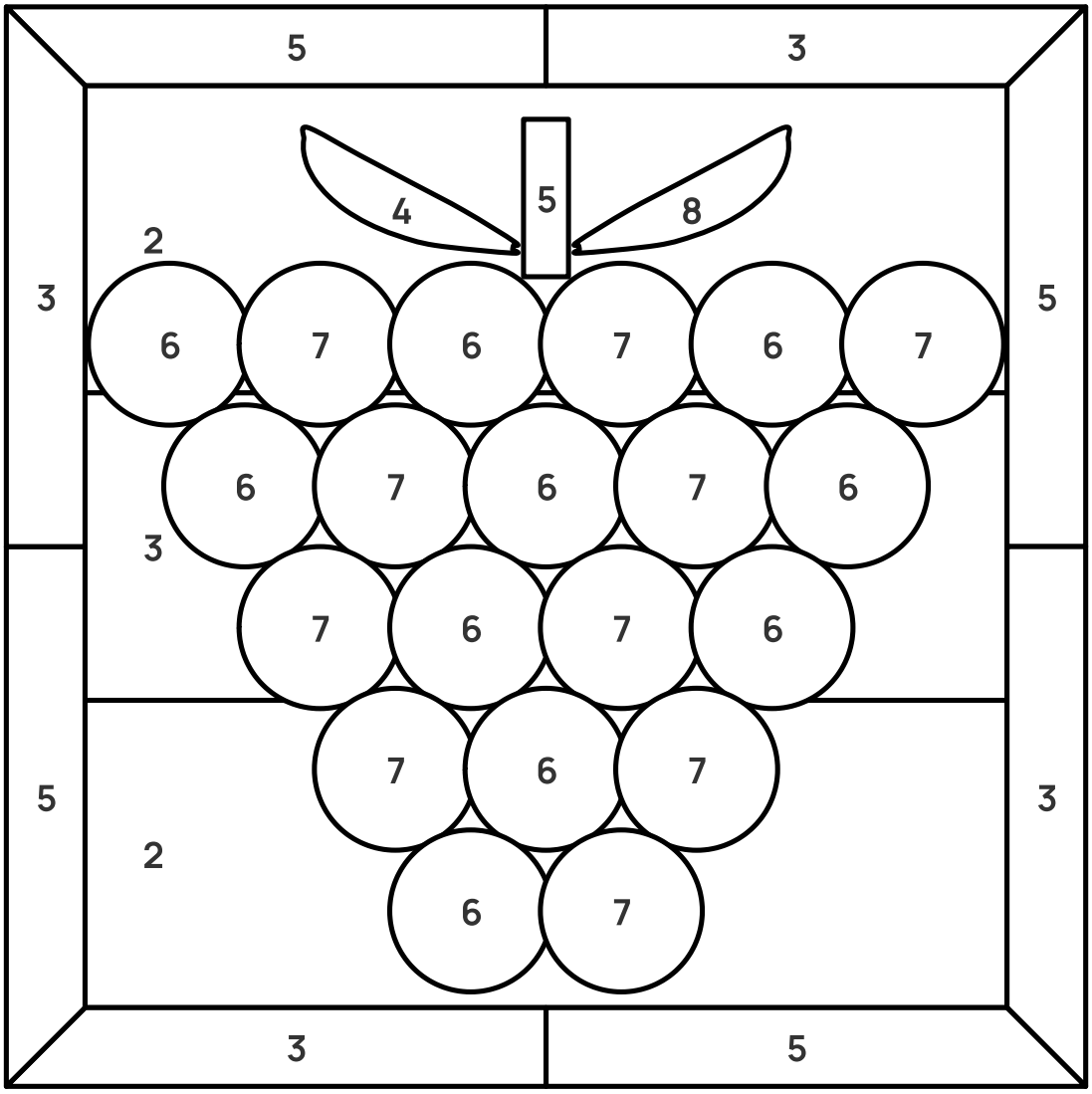

2:黄色 3:青 4:緑 5:オレンジ 6:紫 7:ピンク 8:水色

完成見本

ぶどう · 23日目

名前 _____ 日付 _____

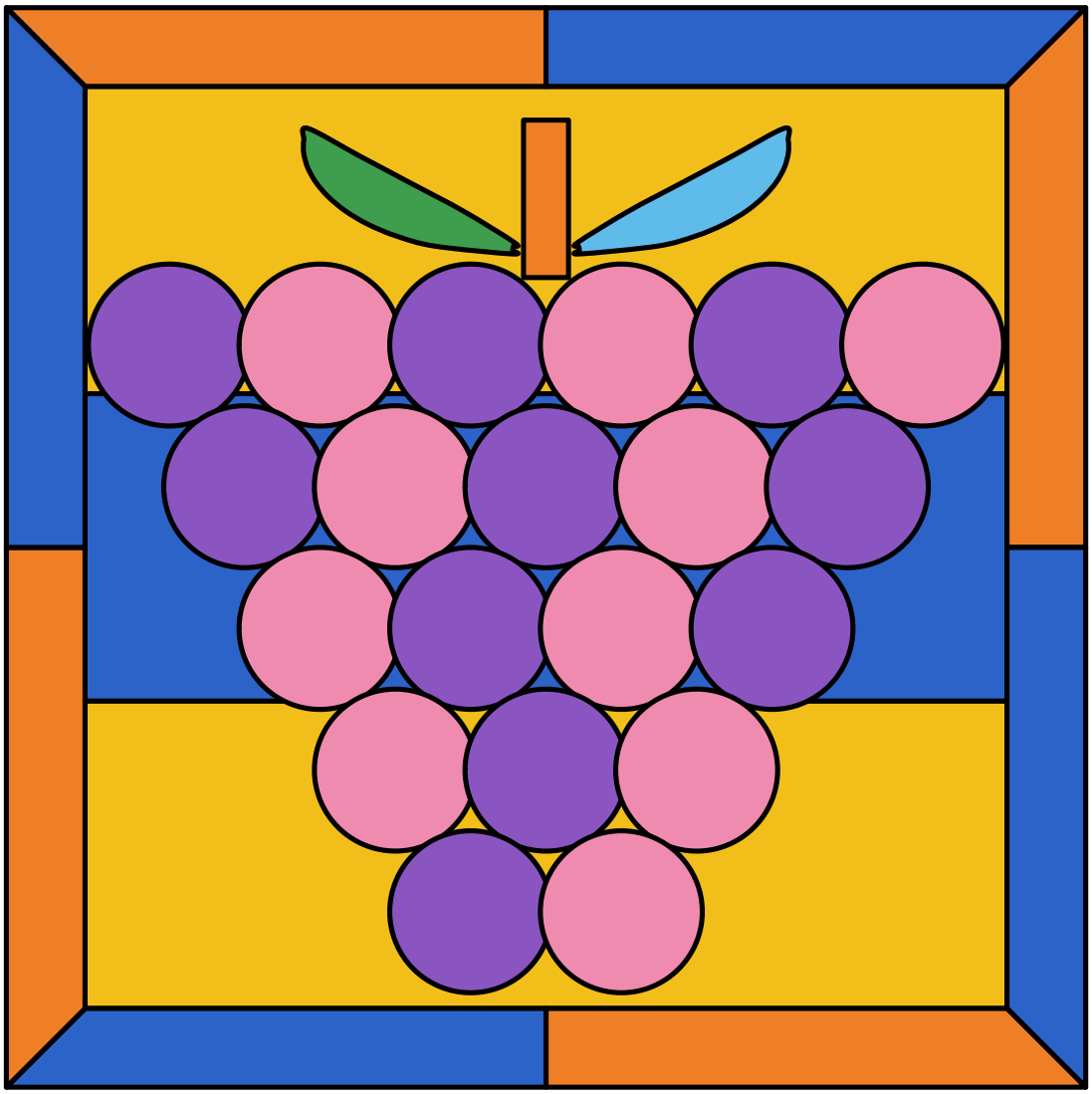

図形かぞえ

レベル3 やさしい · 24日目

名前 _____ 日付 _____

それぞれの絵で、聞かれた図形の数をかぞえて四角に書きましょう。



1. 丸はいくつ？ ☐



2. 四角はいくつ？ ☐



3. 三角はいくつ？ ☐



4. 三角はいくつ？ ☐

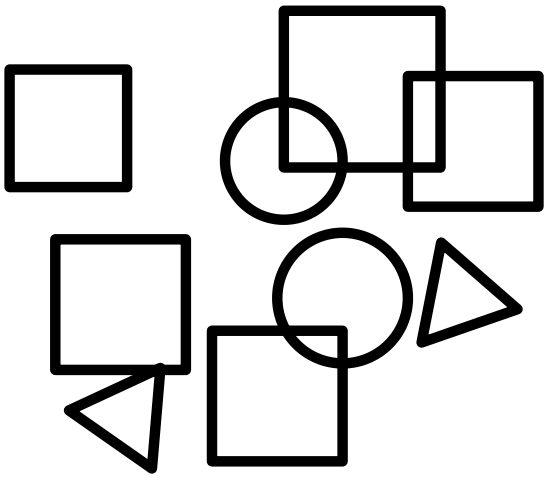

5. 丸はいくつ？ ☐

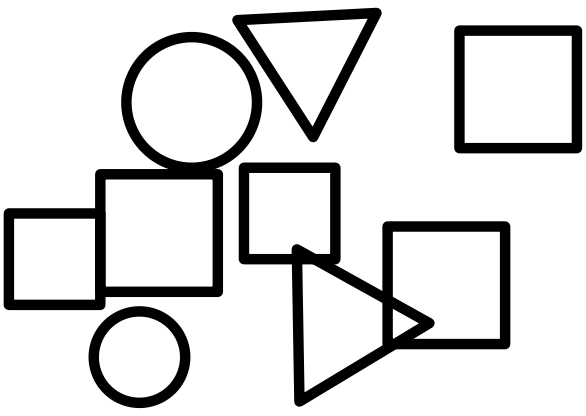

6. 四角はいくつ？ ☐

数字さがし

レベル4 ふつう · 25日目

名前 _____ 日付 _____

1 から 36 まで順番にさがして、えんぴつで線でつなぎましょう。

1. 1 → 36

8	28	34	29	27	10
4	20	2	31	32	12
1	17	33	24	19	25
11	23	30	6	9	5
36	21	15	26	16	7
22	3	13	35	14	18

2. 1 → 36

21	6	28	2	25	12
34	14	24	23	19	7
15	30	5	22	8	26
9	13	3	29	35	1
4	36	27	32	33	31
11	17	16	20	18	10

3. 1 → 36

2	19	16	32	6	31
4	25	34	35	3	18
9	8	30	10	5	33
26	20	28	29	1	23
36	11	22	15	13	27
7	12	24	21	17	14

4. 1 → 36

19	12	18	17	14	16
4	27	25	35	29	9
21	23	8	34	7	1
15	32	2	26	20	33
5	13	6	31	22	10
36	30	3	28	24	11

点つなぎ

レベル3 やさしい · 26日目

名前 _____ 日付 _____

1 から順番に鉛筆で点をつなぎましょう。最後の点を 1 番とつなぐと絵が完成します。

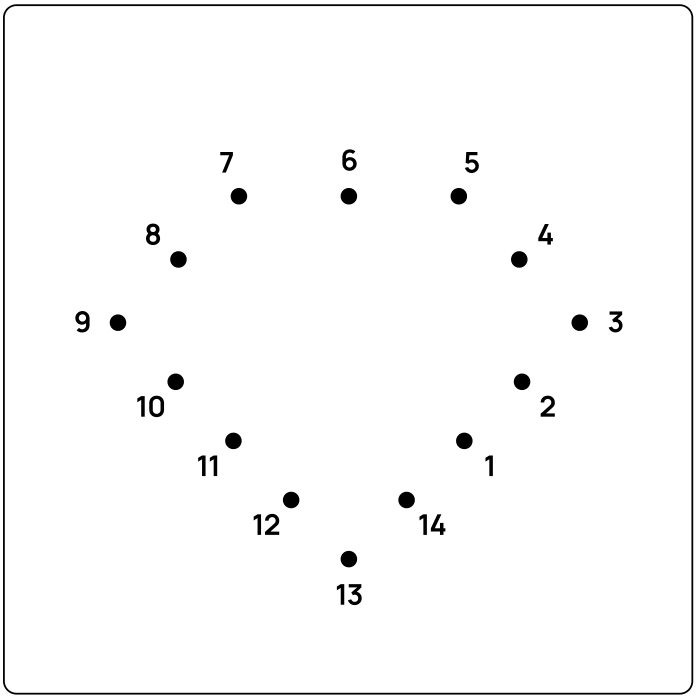

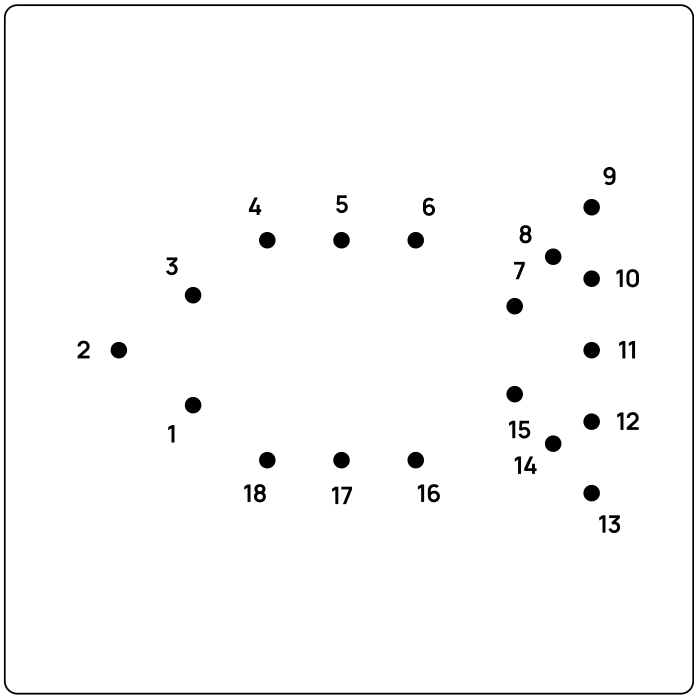

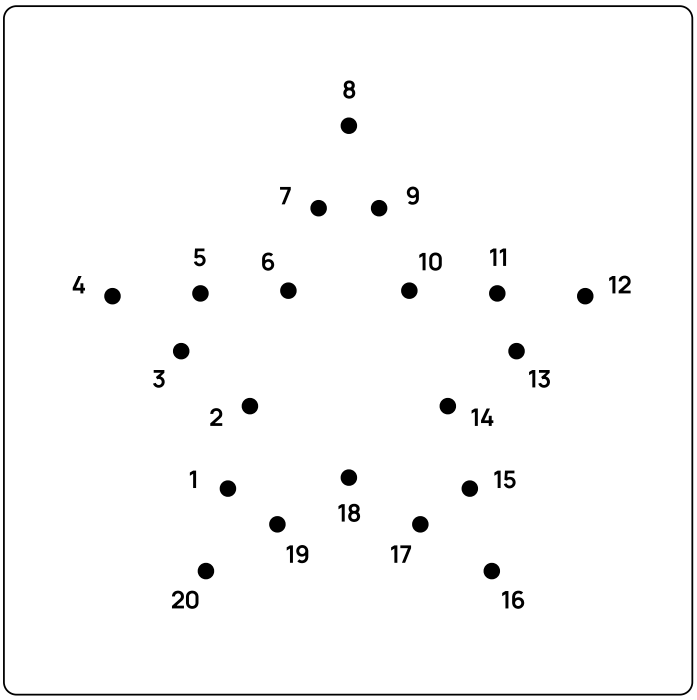

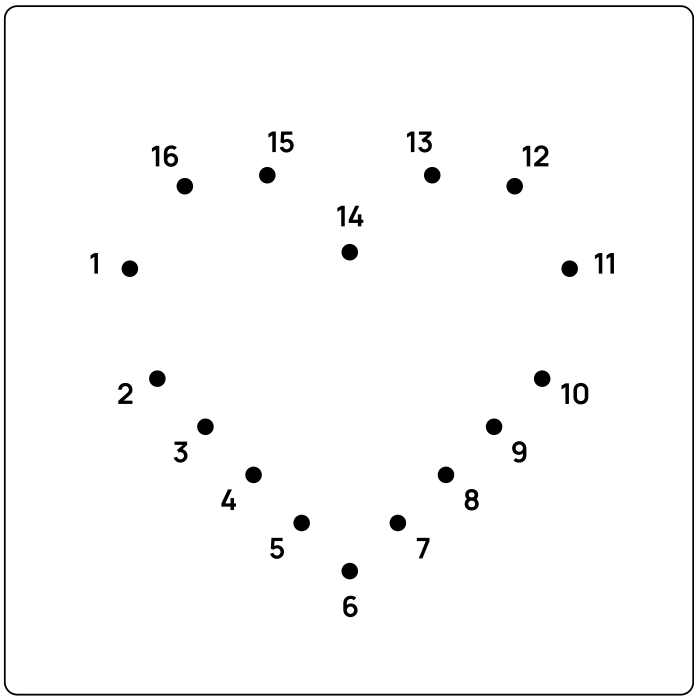

お絵かきロジック

レベル4 ふつう · 27日目

名前 _____ 日付 _____

列ごとに書かれた数だけ、マスを続けてぬりましょう。数が2つ以上なら、あいだを1マス以上あけます。

1.

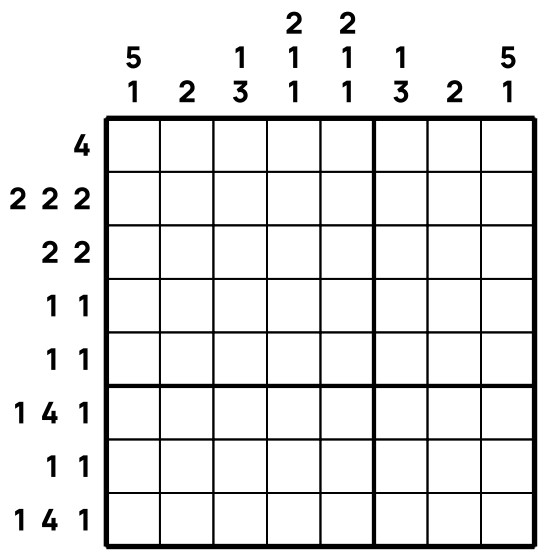

2.

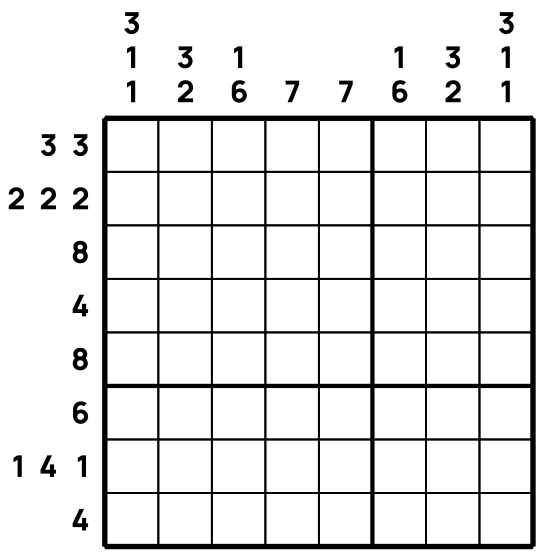

3.

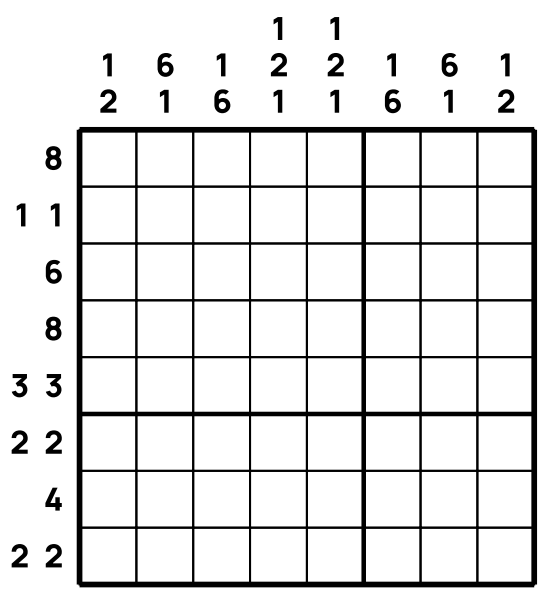

4.

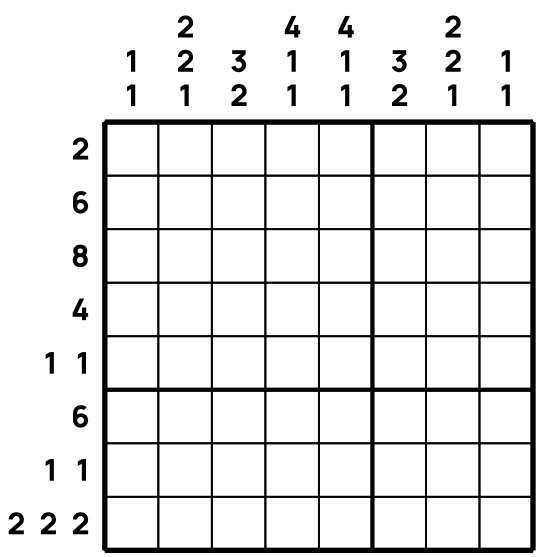

時計よみ

レベル3 やさしい · 28日目

名前 _____ 日付 _____

時計がさす時刻を空らんに書きましょう。

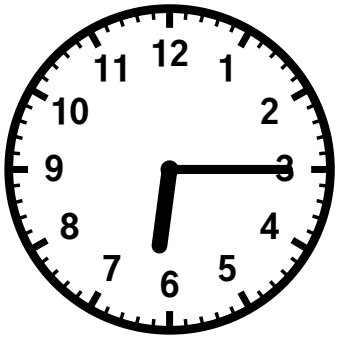

1. __ 時 __ 分



2. __ 時 __ 分



3. __ 時 __ 分



4. __ 時 __ 分



5. __ 時 __ 分

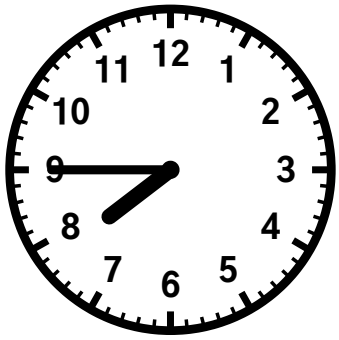

6. __ 時 __ 分

規則さがし

レベル4 ふつう · 29日目

名前 _____ 日付 _____

空らんに入る数字を書きましょう。

1. 61 , 59 , 57 , 55 , ☐ , 51

2. ☐ , 26 , 36 , 46 , 56 , 66

3. 58 , ☐ , 38 , 28 , 18 , 8

4. 52 , 42 , 32 , ☐ , 12 , 2

5. 75 , ☐ , 55 , 45 , 35 , 25

6. 9 , 19 , 29 , 39 , ☐ , 59

7. ☐ , 34 , 31 , 28 , 25 , 22

8. ☐ , 44 , 42 , 40 , 38 , 36

9. 35 , 30 , 25 , ☐ , 15 , 10

10. 18 , 20 , 22 , 24 , ☐ , 28

11. 28 , ☐ , 48 , 58 , 68 , 78

12. 34 , 29 , ☐ , 19 , 14 , 9

13. 21 , 24 , 27 , 30 , ☐ , 36

14. 25 , 35 , 45 , ☐ , 65 , 75

15. 13 , 15 , 17 , 19 , 21 , ☐

16. 19 , 21 , ☐ , 25 , 27 , 29

17. 18 , 20 , 22 , ☐ , 26 , 28

18. 24 , 29 , 34 , ☐ , 44 , 49

19. ☐ , 47 , 49 , 51 , 53 , 55

20. 61 , ☐ , 65 , 67 , 69 , 71

クイーン置き

レベル3 やさしい · 30日目

名前 _____ 日付 _____

たて・よこの列と、太い線で区切られた区画ごとに、丸を1つずつかきましょう。丸同士は、ななめでもとなり合ってはいけません。

1.

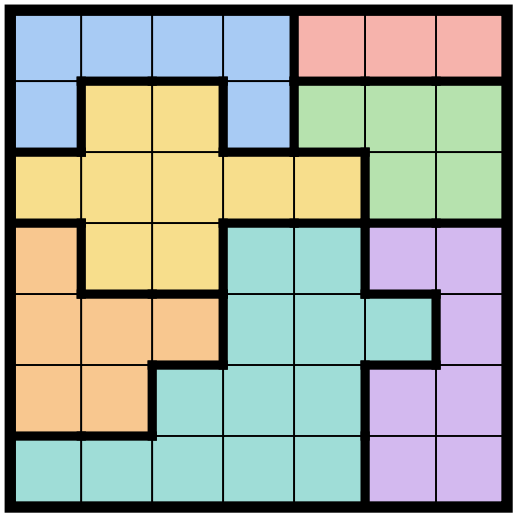

2.

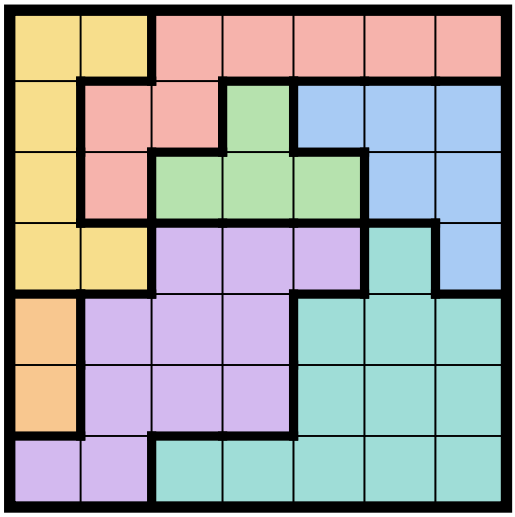

3.

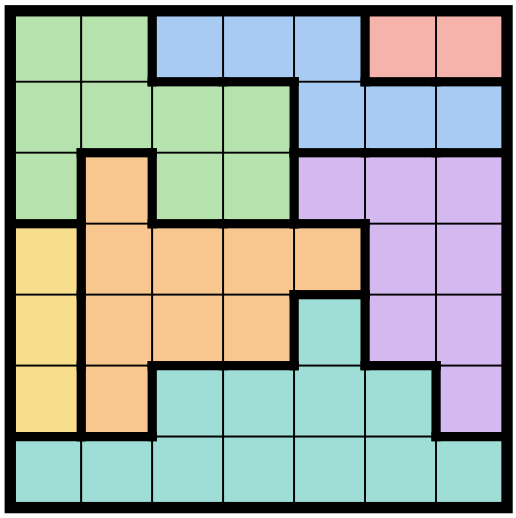

4.

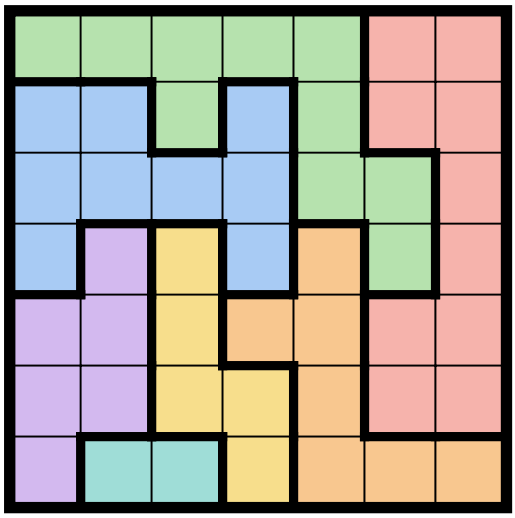

ナンプレ 答え

レベル4 ふつう · 1日目

名前 _____ 日付 _____

5	1	7	8	4	2	6	9	3
6	2	4	9	5	3	8	7	1
3	8	9	1	7	6	5	2	4
8	6	1	2	3	5	9	4	7
2	7	5	6	9	4	1	3	8
9	4	3	7	8	1	2	6	5
4	5	8	3	2	9	7	1	6
1	3	2	5	6	7	4	8	9
7	9	6	4	1	8	3	5	2

計算ドリル 答え

レベル3 やさしい · 2日目

名前 _____ 日付 _____

1. 56 + 2 = 58
2. 67 + 2 = 69
3. 33 + 6 = 39
4. 94 − 2 = 92
5. 83 + 3 = 86
6. 66 + 3 = 69
7. 84 + 3 = 87
8. 84 − 2 = 82
9. 27 − 4 = 23
10. 65 + 3 = 68
11. 52 + 5 = 57
12. 95 − 5 = 90
13. 74 − 3 = 71
14. 46 + 3 = 49
15. 17 + 2 = 19
16. 13 + 6 = 19
17. 80 + 9 = 89
18. 20 + 3 = 23
19. 33 + 4 = 37
20. 46 − 6 = 40
21. 16 + 3 = 19
22. 24 + 4 = 28
23. 77 − 4 = 73
24. 64 + 3 = 67
25. 72 − 2 = 70
26. 35 + 3 = 38
27. 44 − 3 = 41
28. 13 + 5 = 18
29. 54 − 4 = 50
30. 55 + 4 = 59

迷路 答え

レベル4 ふつう · 3日目

名前 _____ 日付 _____

近道は 38歩です。

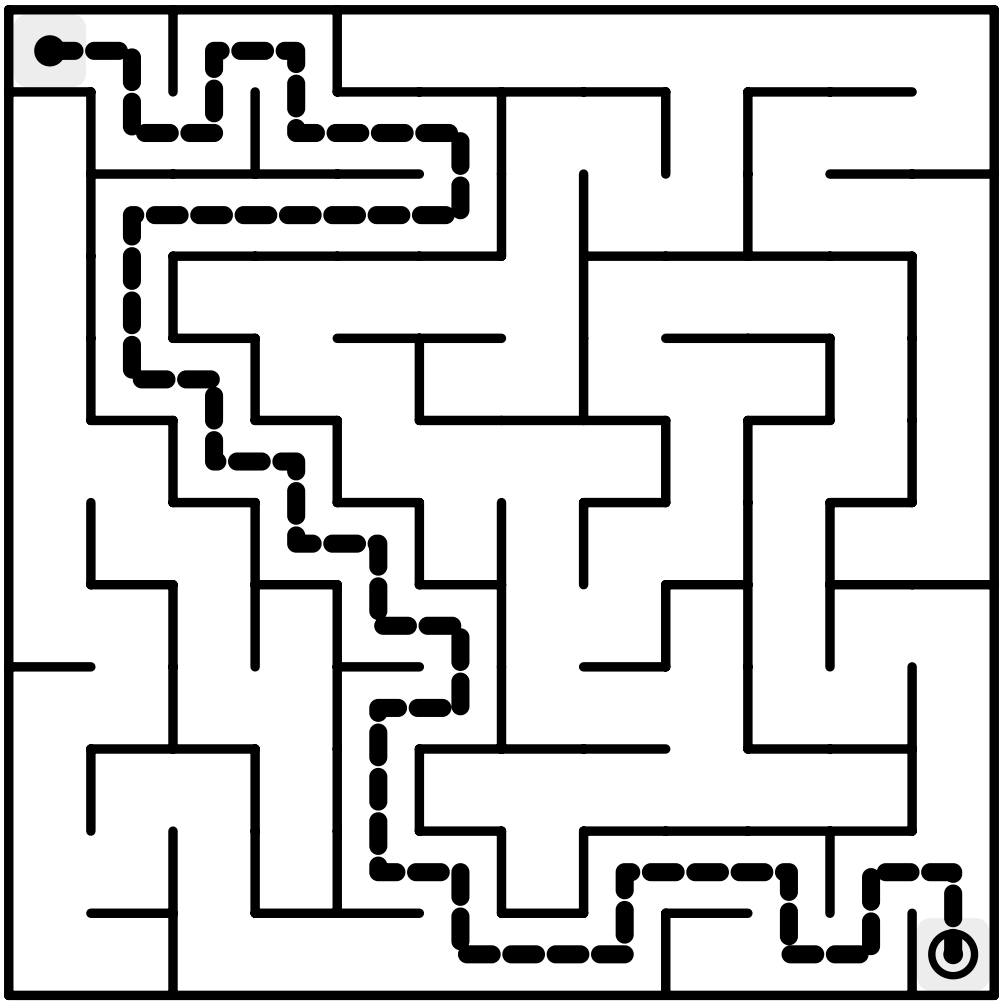

まちがいさがし 答え

レベル3 やさしい · 4日目

名前 _____ 日付 _____

一枚目



二枚目



計算クロス 答え

レベル4 ふつう · 5日目

名前 _____ 日付 _____

		5				
		+				
46	+	6	=	52		
=		−				
51	+	3	=	54		
		=				
		3	+	7	=	10

1		25	−	6	=	19
+				−		
56	−	54	=	2		
=				=		
57		53	−	4	=	49

44	−	42	=	2		47
−				−		
		38	+	8	=	46
		=				=
		4	−	3	=	1

		5	−	1	=	4
		+		+		
17	−	3	=	14		
=		=		=		
23	−	8	=	15		

		56	+	1	=	57
		−		+		
7	−	4	=	3		
=		=				
56	−	52	=	4		

9	−	4	=	5		
+				+		
41	+	1	=	42		
=				=		
50		50	−	47	=	3

図形かぞえ 答え

レベル4 ふつう·7日目

名前 _____ 日付 _____

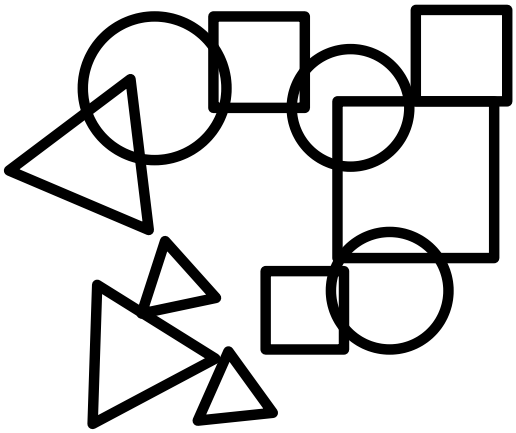

1. 四角はいくつ？ 4



2. 丸はいくつ？ 2

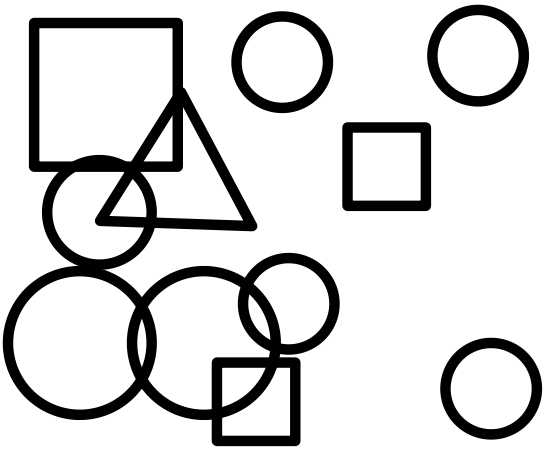

3. 丸はいくつ？ 7



4. 丸はいくつ？ 6



5. 三角はいくつ？ 4



6. 丸はいくつ？ 5

点つなぎ 答え

レベル4 ふつう · 9日目

名前 _____ 日付 _____

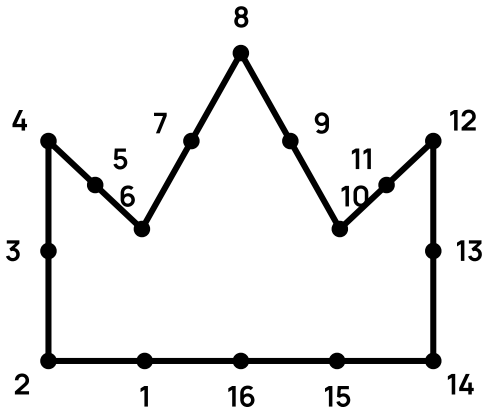

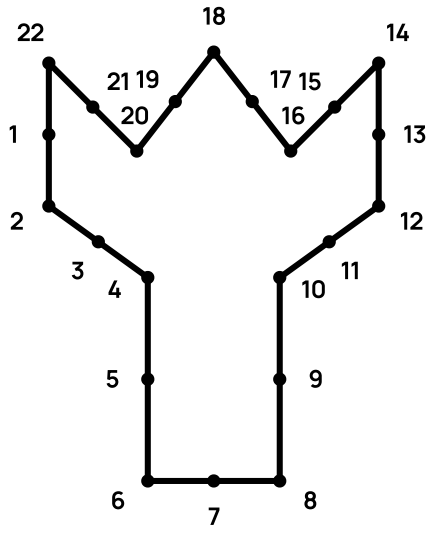

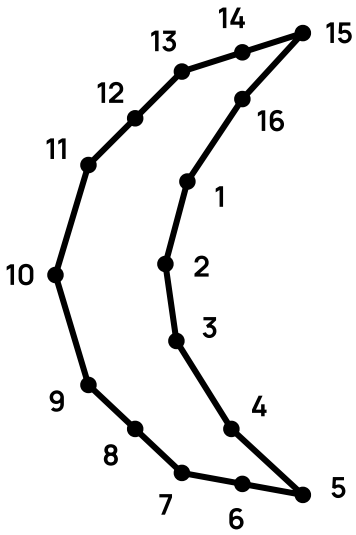

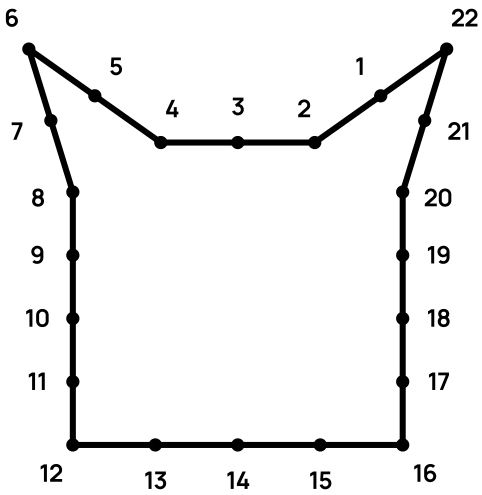

お絵かきロジック 答え

レベル3 やさしい · 10日目

名前 _____ 日付 _____

1.

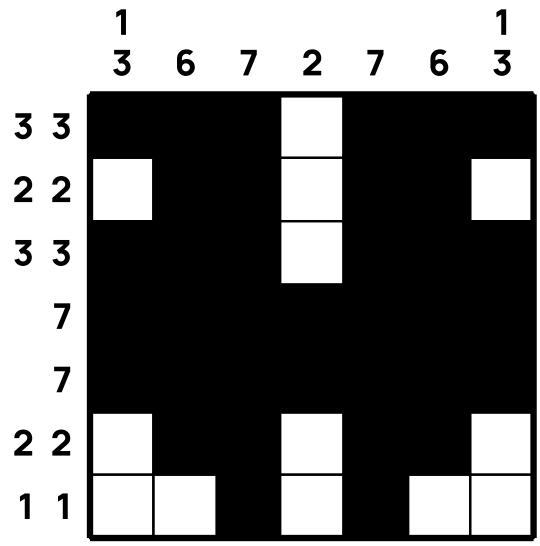

2.

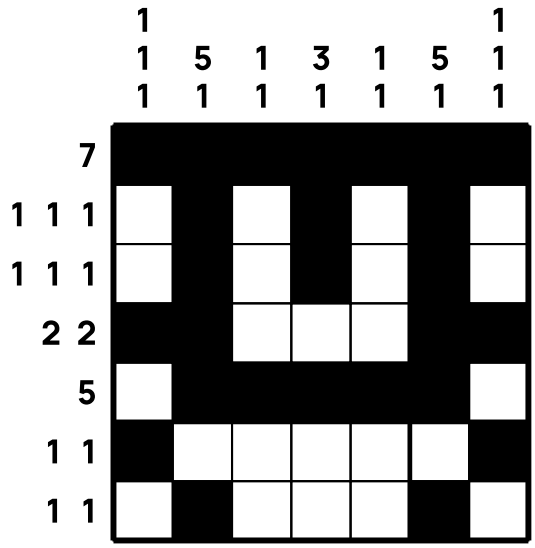

3.

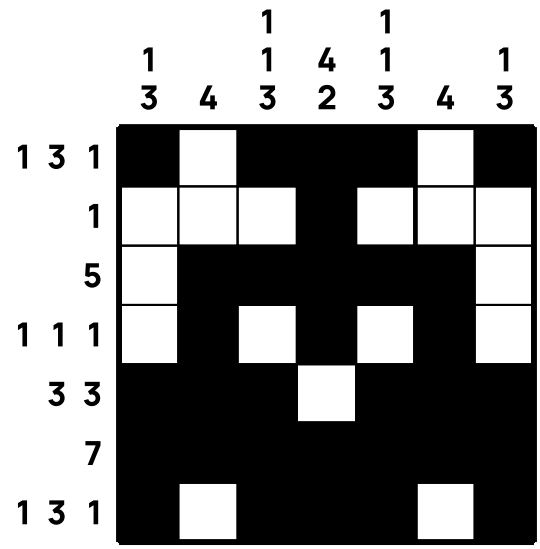

4.

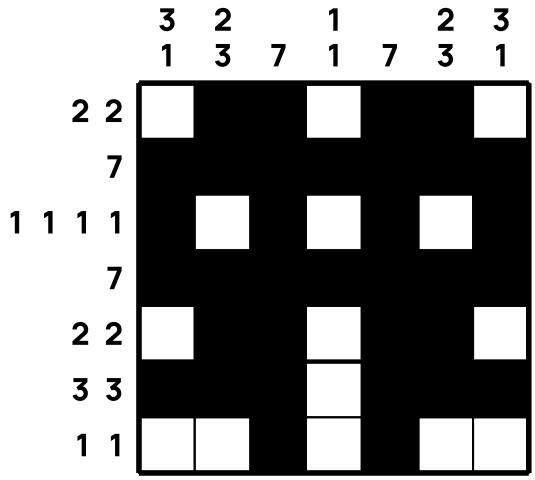

時計よみ 答え

レベル4 ふつう · 11日目

名前 _____ 日付 _____



1. 6時45分



2. 8時10分



3. 9時



4. 1時40分



5. 2時5分



6. 5時15分

規則さがし 答え

レベル3 やさしい · 12日目

名前 _____ 日付 _____

1. 2 , 12 , 22 , [32] , 42
2. 1 , 3 , 5 , [7] , 9
3. 19 , [24] , 29 , 34 , 39
4. 40 , 43 , 46 , [49] , 52
5. 1 , 11 , 21 , [31] , 41
6. 2 , [12] , 22 , 32 , 42
7. 12 , [14] , 16 , 18 , 20
8. 23 , [25] , 27 , 29 , 31
9. 37 , 42 , [47] , 52 , 57
10. 49 , [51] , 53 , 55 , 57
11. 39 , [44] , 49 , 54 , 59
12. 19 , 22 , 25 , [28] , 31
13. 20 , 30 , [40] , 50 , 60
14. 14 , [16] , 18 , 20 , 22
15. 15 , [25] , 35 , 45 , 55
16. 16 , 26 , [36] , 46 , 56
17. 11 , 16 , 21 , [26] , 31
18. 9 , 19 , [29] , 39 , 49
19. 11 , 16 , 21 , [26] , 31
20. 12 , [14] , 16 , 18 , 20

クイーン置き 答え

レベル4 ふつう · 13日目

名前 _____ 日付 _____

1.

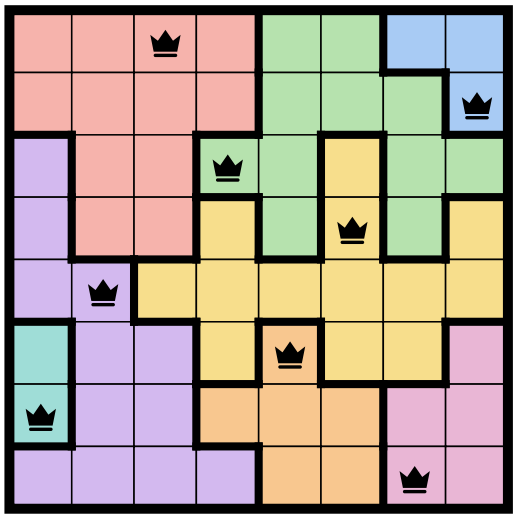

2.

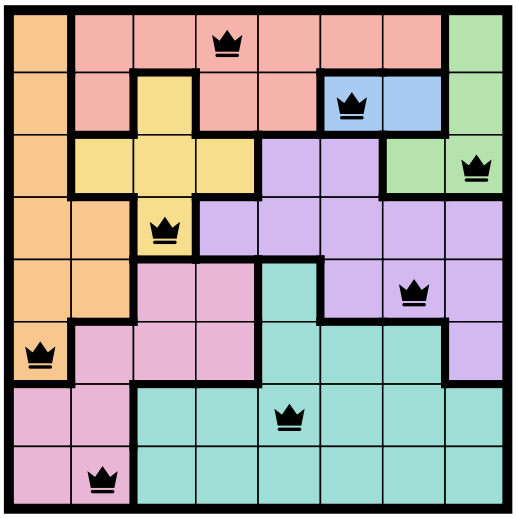

3.

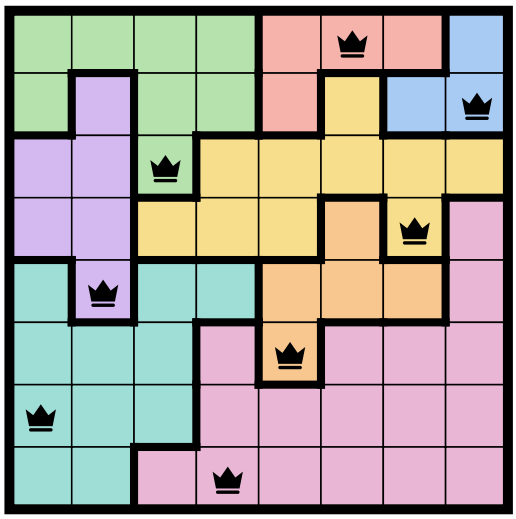

4.

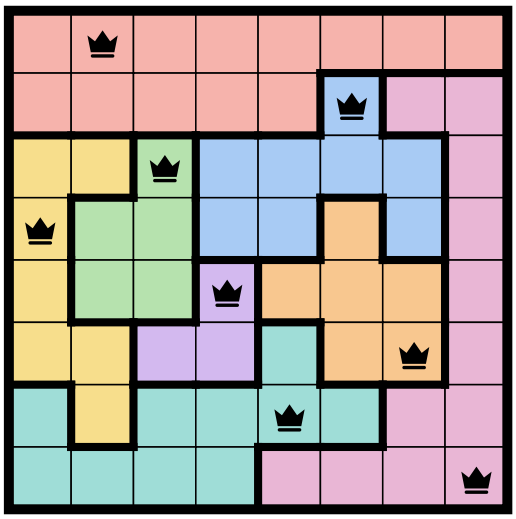

図形模写 答え

レベル3 やさしい · 14日目

名前 _____ 日付 _____

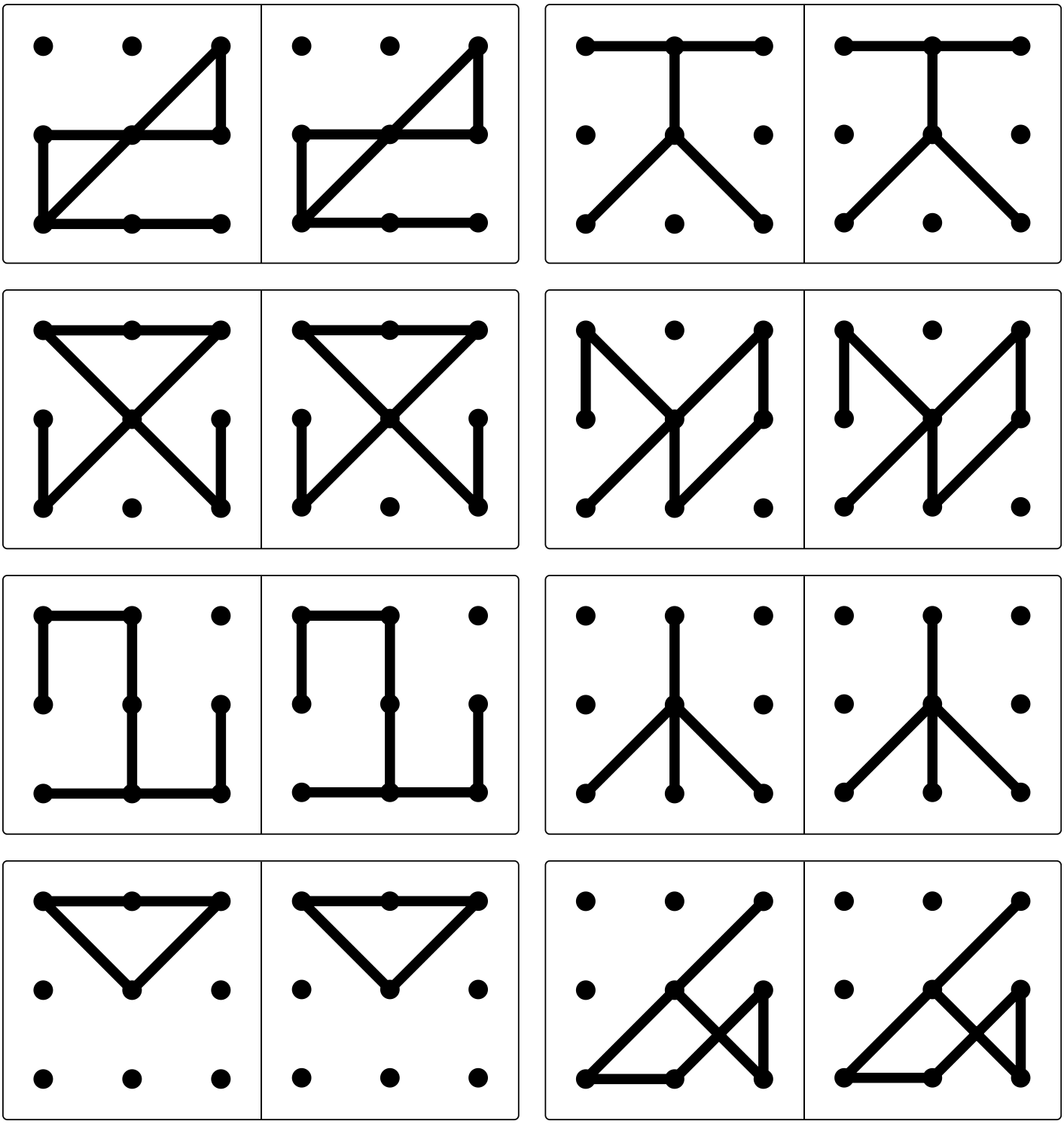

数字ペアさがし 答え

レベル4 ふつう · 15日目

名前 _____ 日付 _____

1.

25	86	37	39	20	79
69	16	18	78	50	67
54	72	33	69	26	54
61	71	90	51	17	24
76	82	72	26	23	41

2.

27	33	94	22	60	26
57	14	91	75	39	72
96	14	65	39	37	64
72	56	10	20	56	12
85	21	87	70	42	59

3.

48	43	50	30	66	16
43	18	83	67	47	71
24	25	53	94	77	66
85	49	80	78	58	22
15	82	94	36	67	93

4.

95	80	62	54	45	98
17	51	14	28	61	37
11	93	12	20	46	41
50	56	20	79	37	24
89	94	80	99	66	94

数字つなぎ 答え

レベル3 やさしい · 16日目

名前 _____ 日付 _____

1.

1	16	17	24	23
2	15	18	25	22
3	14	19	20	21
4	13	12	11	10
5	6	7	8	9

2.

13	14	25	24	1
12	15	22	23	2
11	16	21	20	3
10	17	18	19	4
9	8	7	6	5

3.

17	18	21	22	25
16	19	20	23	24
15	14	13	12	1
8	9	10	11	2
7	6	5	4	3

4.

11	10	9	8	7
12	19	20	21	6
13	18	23	22	5
14	17	24	25	4
15	16	1	2	3

影あわせ 答え

レベル4 ふつう · 17日目

名前 _____ 日付 _____

1. 

6



2. 

5



3. 

6



4. 

2

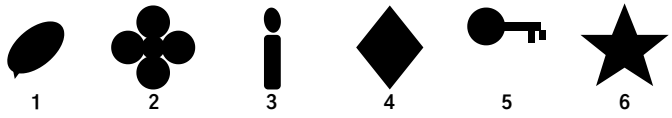

ナンプレ 答え

レベル3 やさしい · 18日目

名前 _____ 日付 _____

1	8	5	2	4	7	6	9	3
7	3	6	1	5	9	4	8	2
9	4	2	6	3	8	1	5	7
8	7	1	5	9	4	2	3	6
3	2	4	7	8	6	5	1	9
5	6	9	3	1	2	8	7	4
4	9	7	8	2	5	3	6	1
2	5	3	9	6	1	7	4	8
6	1	8	4	7	3	9	2	5

計算ドリル 答え

レベル4 ふつう · 19日目

名前 _____ 日付 _____

1. 63 + 30 = 93
2. 75 − 68 = 7
3. 76 + 14 = 90
4. 23 − 16 = 7
5. 63 − 55 = 8
6. 91 − 47 = 44
7. 46 + 41 = 87
8. 90 − 29 = 61
9. 30 − 27 = 3
10. 15 + 44 = 59
11. 14 + 34 = 48
12. 53 + 29 = 82
13. 75 + 16 = 91
14. 24 + 13 = 37
15. 34 + 56 = 90
16. 42 + 48 = 90
17. 26 + 59 = 85
18. 38 + 16 = 54
19. 92 − 21 = 71
20. 19 + 47 = 66
21. 30 − 14 = 16
22. 71 − 12 = 59
23. 25 − 16 = 9
24. 49 + 33 = 82
25. 59 − 16 = 43
26. 56 − 29 = 27
27. 26 − 17 = 9
28. 59 − 47 = 12
29. 99 − 12 = 87
30. 69 + 29 = 98

迷路 答え

レベル3 やさしい · 20日目

名前 _____ 日付 _____

近道は 30歩です。

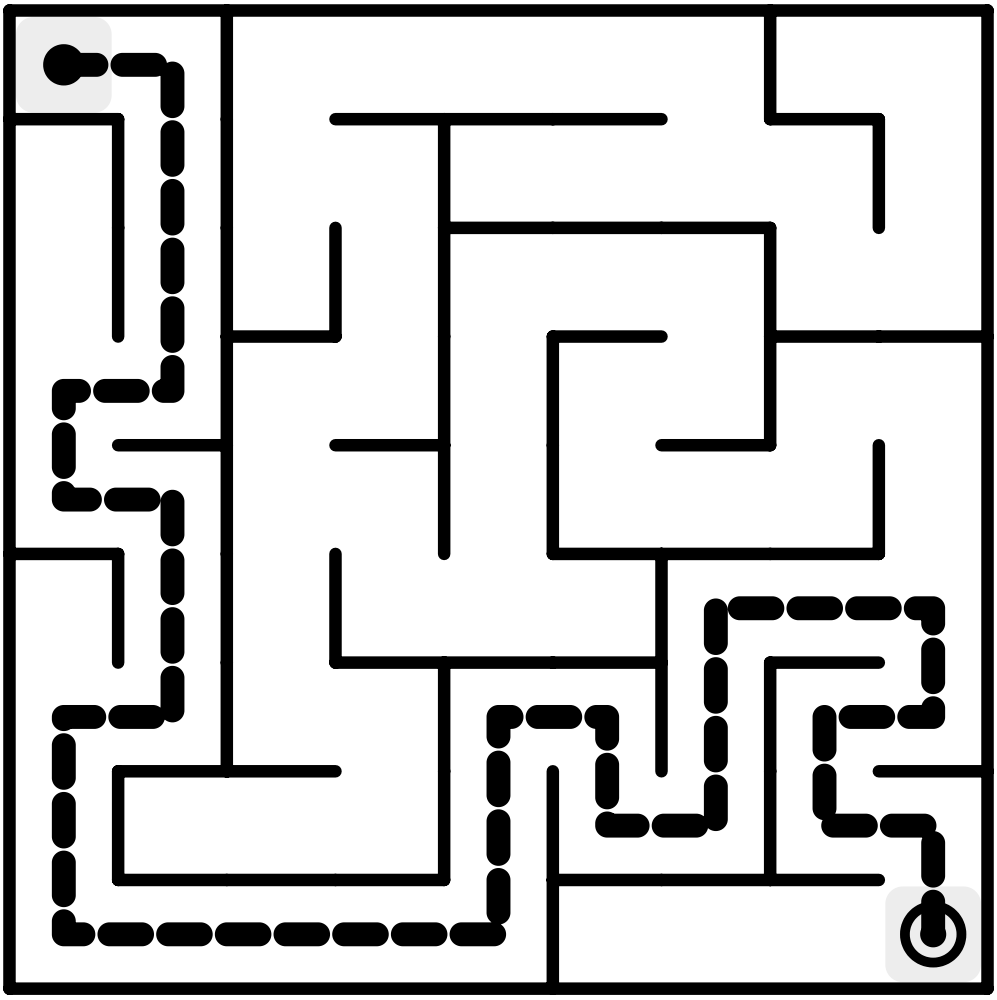

まちがいさがし 答え

レベル4 ふつう · 21日目

名前 _____ 日付 _____

一枚目



二枚目



計算クロス 答え

レベル3 やさしい · 22日目

名前 _____ 日付 _____

3	+	12	=	15	6	−	5	=	1	28	+	1	=	29
+		−			+		−			−		+		
2	+	2	=	4	16	+	4	=	20	1	+	1	=	2
=		=			=		=			=		=		
5	+	10	=	15	22	+	1	=	23	27	+	4	=	31

3	−	1	=	2	35	+	3	=	38	26	−	7	=	19
+				+			+		−	−				+
36	−	6	=	30	8	+	1	=	9	8	−	1	=	7
=				=			=		=	=				=
39	−	7	=	32	25	+	4	=	29	18	+	8	=	26

6	+	23	=	29	6	−	4	=	2	1	+	37	=	38
+		+			+				+	+		−		
3	+	5	=	8	17	−	10	=	7	3	+	3	=	6
=		=			=				=	=		=		
9	+	28	=	37	23	−	14	=	9	4	+	34	=	38

図形かぞえ 答え

レベル3 やさしい · 24日目

名前 _____ 日付 _____



1. 丸はいくつ？ 2



2. 四角はいくつ？ 5



3. 三角はいくつ？ 6



4. 三角はいくつ？ 4



5. 丸はいくつ？ 2

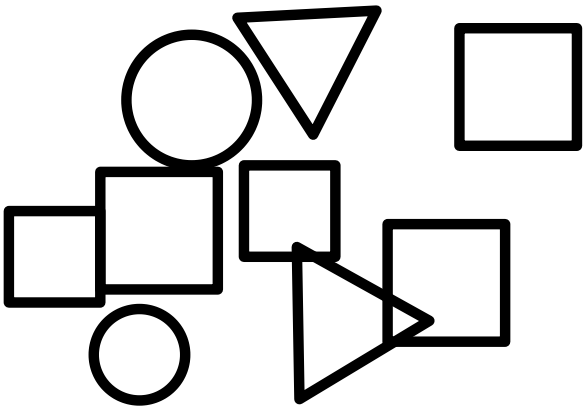

6. 四角はいくつ？ 5

点つなぎ 答え

レベル3 やさしい · 26日目

名前 _____ 日付 _____

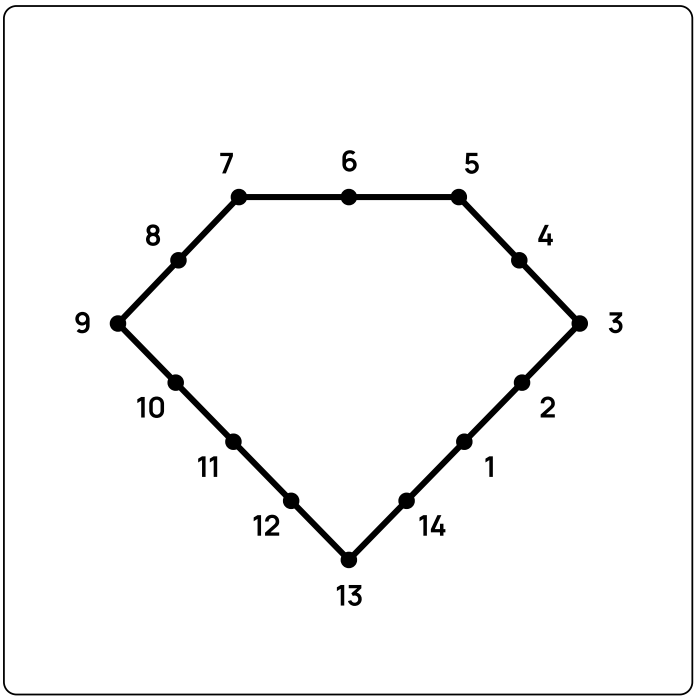

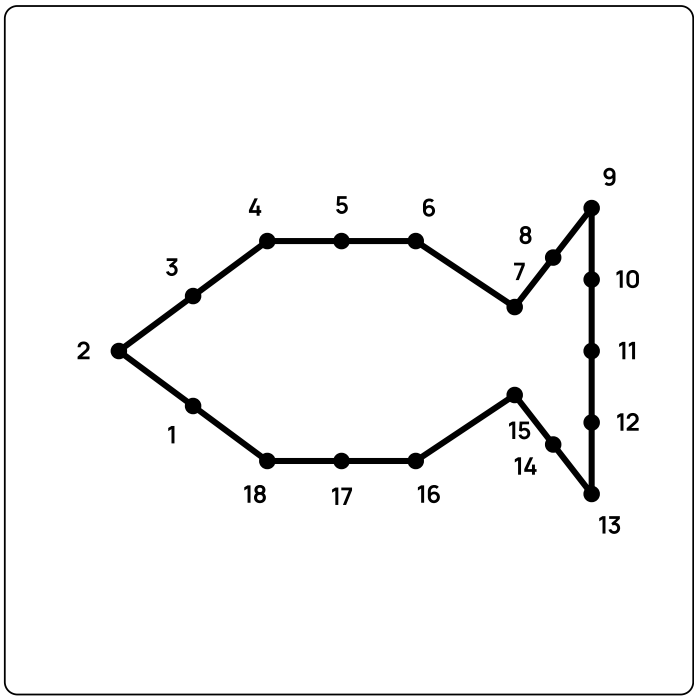

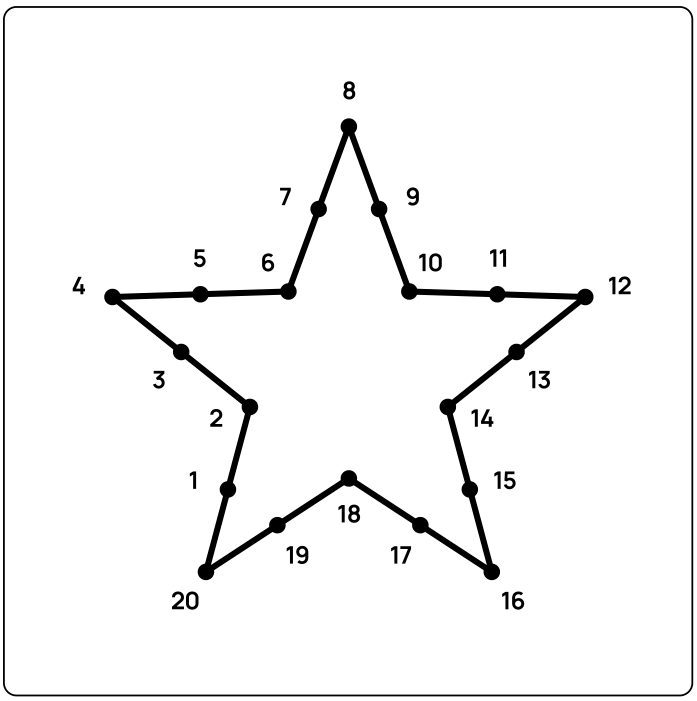

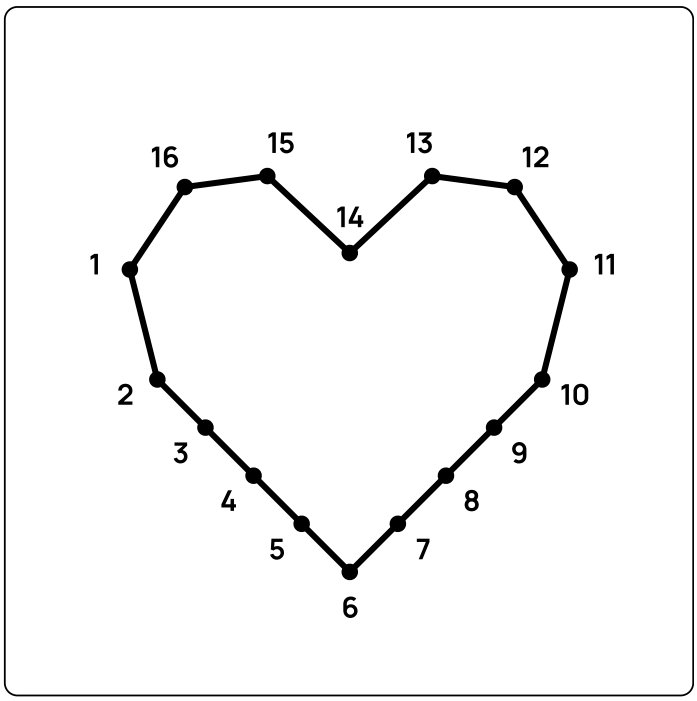

お絵かきロジック 答え

レベル4 ふつう · 27日目

名前 _____ 日付 _____

1.

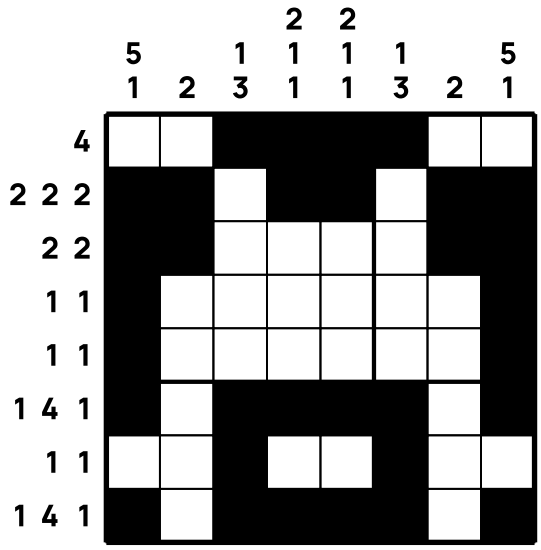

2.

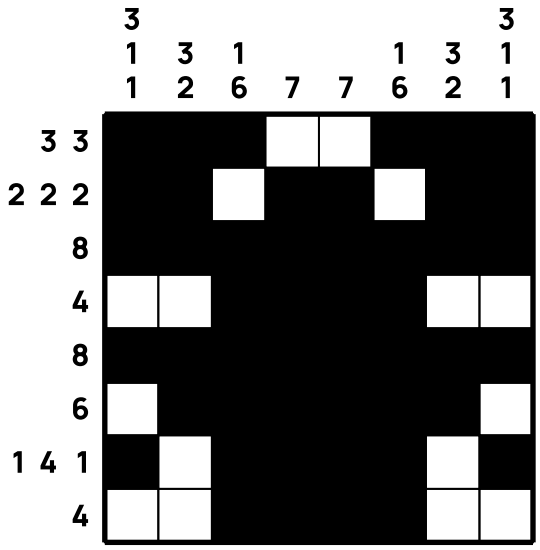

3.

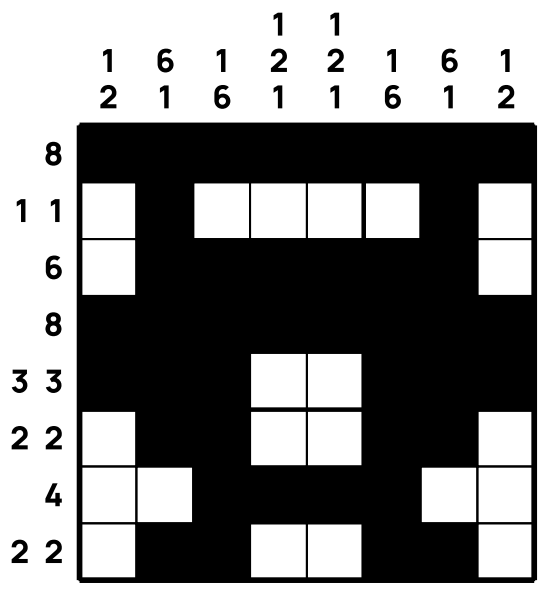

4.

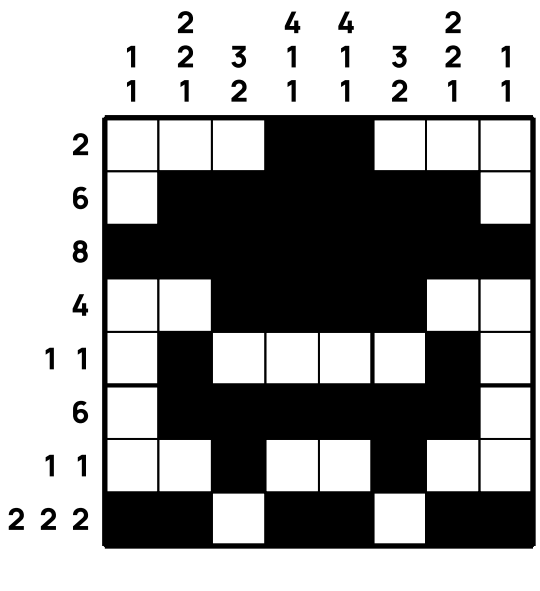

時計よみ 答え

レベル3 やさしい · 28日目

名前 _____ 日付 _____



1. 6時15分



2. 10時45分



3. 12時15分



4. 9時



5. 7時30分

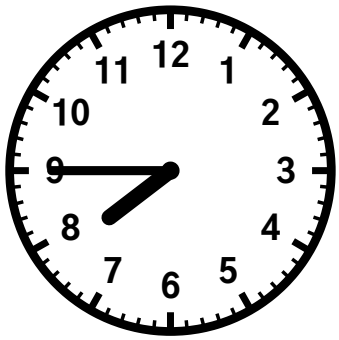

6. 7時45分

規則さがし 答え

レベル4 ふつう · 29日目

名前 _____ 日付 _____

1. 61 , 59 , 57 , 55 , **53** , 51

2. **16** , 26 , 36 , 46 , 56 , 66

3. 58 , **48** , 38 , 28 , 18 , 8

4. 52 , 42 , 32 , **22** , 12 , 2

5. 75 , **65** , 55 , 45 , 35 , 25

6. 9 , 19 , 29 , 39 , **49** , 59

7. **37** , 34 , 31 , 28 , 25 , 22

8. **46** , 44 , 42 , 40 , 38 , 36

9. 35 , 30 , 25 , **20** , 15 , 10

10. 18 , 20 , 22 , 24 , **26** , 28

11. 28 , **38** , 48 , 58 , 68 , 78

12. 34 , 29 , **24** , 19 , 14 , 9

13. 21 , 24 , 27 , 30 , **33** , 36

14. 25 , 35 , 45 , **55** , 65 , 75

15. 13 , 15 , 17 , 19 , 21 , **23**

16. 19 , 21 , **23** , 25 , 27 , 29

17. 18 , 20 , 22 , **24** , 26 , 28

18. 24 , 29 , 34 , **39** , 44 , 49

19. **45** , 47 , 49 , 51 , 53 , 55

20. 61 , **63** , 65 , 67 , 69 , 71

クイーン置き 答え

レベル3 やさしい · 30日目

名前 _____ 日付 _____

1.

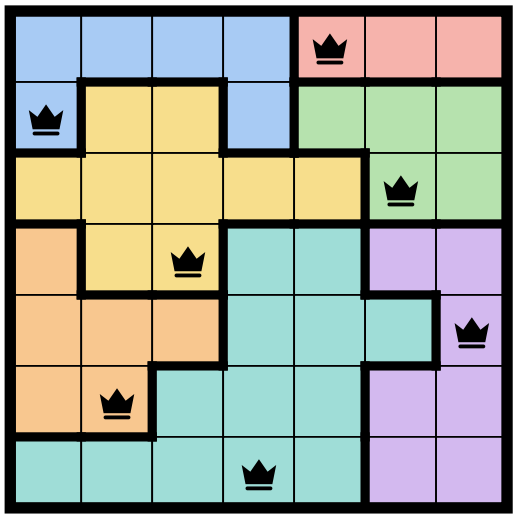

2.

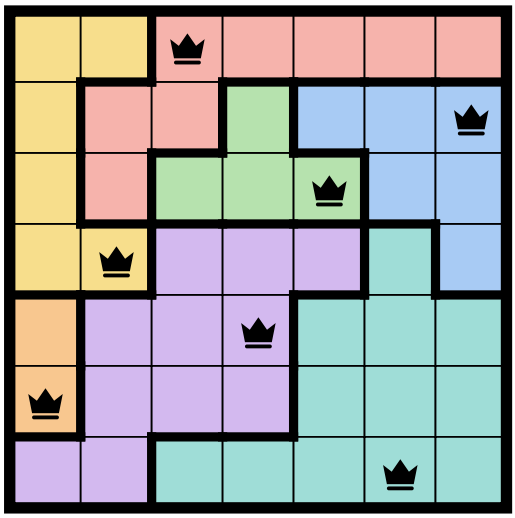

3.

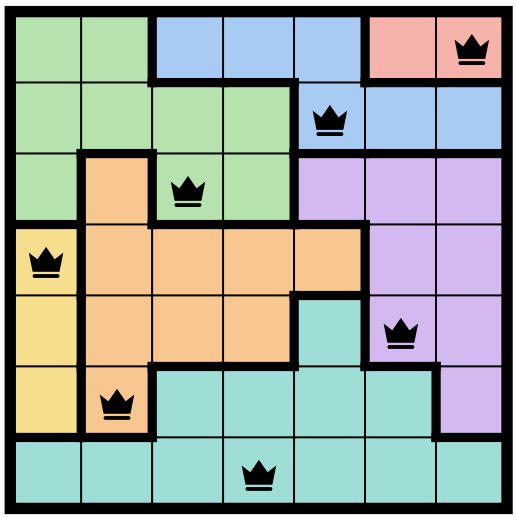

4.

